க.பொ.த. (சா.தர)ப் பரீட்சை - 2016

Marking Scheme

33 - வரலாறு

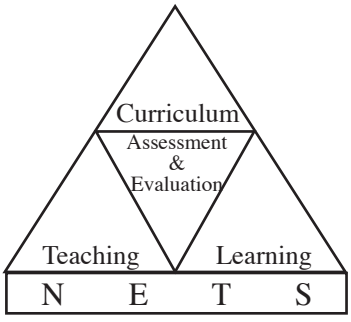

ஆய்வு அபிவிருத்திக் கிளை,
தேசிய மதிப்பீட்டிற்கும் பரீட்சித்தலுக்குமான சேவை,
இலங்கைப் பரீட்சைத் திணைக்களம்.

2.1.3 **வினாத்தாள் I இற்கான எதிர்பார்க்கப்பட்ட விடைகளும் புள்ளி வழங்கும் திட்டமும்**

வினா இல.	விடை	வினா இல.	விடை
01.	02	21.	04 .....
02.	01	22.	02 .....
03.	03	23.	03 .....
04.	04	24.	03 .....
05.	04	25.	04 .....
06.	02	26.	03 .....
07.	01	27.	02 .....
08.	03	28.	04 .....
09.	02	29.	03 .....
10.	03	30.	01 .....
11.	01	31.	03 .....
12.	03	32.	01 .....
13.	02	33.	02 .....
14.	04	34.	02 .....
15.	01	35.	03 .....
16.	04	36.	01 .....
17.	02	37.	02 .....
18.	01	38.	04 .....
19.	03	39.	03 .....
20.	02	40.	02 .....

அட்டவணை 05

ஒரு விடைக்கு 02 புள்ளிகள் வீதம் மொத்தமாக 80 புள்ளிகள்

வினாத்தாள் I இற்கான இறுதிப் புள்ளிகள் = $\frac{80}{2}$ = **40**

2.2 வினாத்தாள் II இற்கு விடையளிக்கப்பட்டமை தொடர்பான விபரங்கள்

2.2.1 வினாத்தாள் II - கட்டமைப்பு

வினாத்தாள் I - நேரம் 01மணித்தியாலம், மொத்தப் புள்ளிகள் 80

40 பல்தேர்வு வினாக்களைக் கொண்டது. எல்லா வினாக்களுக்கும் விடை எழுத வேண்டும். **தரம் 10 இல் 50% உம், தரம்** 11 **இல் 50% மும்** உள்ளடங்குமாறு வினாக்கள் தயாரிக்கப்படுவதுடன், அதில் **80% இலங்கை வரலாறு** தொடர்பான தேர்ச்சி மட்டத்திற்கும், **20% உலக வரலாறு** தொடர்பான தேர்ச்சி மட்டத்திற்கும் ஒதுக்கப்படும். ஒரு வினாவுக்கு 02 புள்ளிகள் வீதம் மொத்தம் 80 புள்ளிகள்.

வினாத்தாள் II - நேரம் 03மணித்தியாலம், மொத்தப் புள்ளிகள் 120
இது I, II, III ஆகிய முக்கிய மூன்று பகுதிகளைக் கொண்டது.

பகுதி I

முதலாம் வினா கட்டாயமானது. அது (அ), (ஆ) ஆகிய இரு பகுதிகளைக் கொண்டது.
பகுதி (அ) - இடங்களைக் குறித்துப் பெயரிடுதல் - 18 புள்ளிகள்
பகுதி (ஆ) - படங்கள் தொடர்பான / வரலாற்று நிகழ்வுகள் தொடர்பான மூன்று பகுதிகளையுடையது.
12 புள்ளிகள் $4 \times 3 = 12$ புள்ளிகள்

பகுதி II

கட்டமைப்பு, பகுதிக் கட்டமைப்பு, கட்டுரை வகையிலான 6 வினாக்களைக் கொண்டது. இவற்றில் 4 வினாக்களுக்கு விடையளித்தல் வேண்டும். இந்த 6 வினாக்களும் தேர்ச்சி மட்டத்திற்கு அமைய ஒதுக்கப்பட்டுள்ள பாடவேளைகளின் எண்ணிக்கைக்கு ஏற்ப பின்வரும் பாட அலகுகளிலிருந்து தயாரிக்கப்படும்.

தரம் 10 - 1, 2, 3, 4, 5, 6, 7, 8, 10
தரம் 11 - 2, 3, 4, 5, 6 $18 \times 4 = 72$ புள்ளிகள்

பகுதி III

கட்டமைப்பு, பகுதிக் கட்டமைப்பு, கட்டுரை வகையிலான 2 வினாக்களைக் கொண்டதாகும். இவற்றில் ஒரு வினாவுக்கு விடையளித்தல் வேண்டும். இந்த இரண்டு வினாக்களும் தேர்ச்சி மட்டத்திற்கு அமைய, ஒதுக்கப்பட்ட பாடவேளைகளின் எண்ணிக்கைக்கு ஏற்ப பாட அலகுகளிலிருந்து தயாரிக்கப்படும்.

தரம் 10 - 9
தரம் 11 - 1, 7, 8 $18 \times 1 = 18$ புள்ளிகள்

இறுதிப் புள்ளியைக் கணித்தல் : வினாத்தாள் I = 80
வினாத்தாள் II = 120
இறுதிப் புள்ளி = $200 \div 2 = \underline{100}$

2.2.2 வினாத்தாள் II - எதிர்பார்க்கப்பட்ட விடைகள், புள்ளி வழங்கும் திட்டம், விடையளித்தல் தொடர்பான அவதானிப்புகளும், முடிவுகளும், ஆலோசனைகளும் :

வினாத்தாள் II இற்கு விடையளித்தமை தொடர்பான அவதானிப்பு வரைபு 2, 3, 4.1, 4.2, 4.3 என்ற முறையில் முன்வைக்கப்பட்டுள்ளது. வினாவுக்குரிய வரைபு, உரிய வினாக்களின் அவதானிப்பு, முடிவுகள் என்பவற்றுடன் காட்டப்பட்டுள்ளது.

பகுதி I

வினா இலக்கம் 1

1. (அ) கீழே (i) இல் குறிப்பிடப்பட்டுள்ள **எல்லா** வரலாற்று இடங்களையும் தரப்பட்டுள்ள இலங்கைப் படத்திலும் (ii) இல் குறிப்பிடப்பட்டுள்ள **எல்லா** வரலாற்று இடங்களையும் தரப்பட்டுள்ள உலகப் படத்திலும் குறித்துப் பெயரிடுக.

(i) தெதுறு ஓயா, கல் ஓயா, இலங்கைத்துறை, சிலாபம், கதிர்காமம், செங்கடகல, பூந்தல, இப்பன்கட்டுவ, யோத வாவி, நல்லூர், கலாவாவி, ஊராத்தோட்டை (12 புள்ளிகள்)

(ii) சென்னை (மதராஸ்), பாரசீக விரிகுடா, ஜாவா தீவு, இத்தாலி, கெலிகட், கொன்ஸ்தாந்திநோபிள் (06 புள்ளிகள்)

(ஆ) (i) மேல்வரும் *A, B, C, D* ஆகிய வரலாற்றுத் தகவல்களுடன் தொடர்புடைய நபர்களை ஒழுங்குமுறையில் உங்கள் விடைத்தாளில் எழுதுக.

A - இந்தியாவிற் கரையிறங்கி, தான் ஒரு கிறிஸ்தவன் என்றும் வாசனைத்திரவியங்களைத் தேடி வந்ததாகவும் குறிப்பிட்டவர்

B - 'திலோக சுந்தரி' என்ற காலிங்க மன்னனின் மகளை மணம்முடித்த பொலன்னறுவையின் அரசன்

C - இலங்கையை ஆட்சிசெய்த முதலாவது இலம்பகர்ண அரசன்

D - இரண்டாம் உலக மகாயுத்தத்துடன் தொடர்புடைய இத்தாலிய பாசிச ஆட்சியாளர் (04 புள்ளிகள்)

- *A, B* ஆகியவற்றினால் காட்டப்பட்டுள்ள படங்களை அவதானித்து, கேட்கப்பட்டுள்ள வினாக்களுக்கான விடைகளை வினா இலக்கங்களின் ஒழுங்கில் உங்கள் விடைத்தாளில் எழுதுக.

(ii) 1. '*A*' இனால் காட்டப்பட்டுள்ள நிர்மாணிப்பின் பெயர் என்ன ?
2. எந்தத் தூபியில் மேற்கொள்ளப்பட்ட அகழ்வாராய்ச்சியினால் இது கண்டுபிடிக்கப்பட்டது ?
3. இது எந்த உலோகத்தினால் உருவாக்கப்பட்டுள்ளது ?
4. இந்த தொல்பொருள் கண்டுபிடிக்கப்பட்ட இடத்திற் பிறந்ததாகக் கருதப்படும் மன்னனின் பெயர் என்ன ?
(04 புள்ளிகள்)



A

(iii) 1. '*B*' இனால் காட்டப்பட்டுள்ள கட்டடத்தின் பெயர் என்ன ?
2. இது எந்த சமயத்திற்குரியது ?
3. இது இலங்கையின் எவ்வரலாற்று நகரத்தில் அமைந்துள்ளது ?
4. இது இலங்கையை ஆண்ட எந்த வெளிநாட்டு ஆட்சியாளர்களினால் நிர்மாணிக்கப்பட்டது ?
(04 புள்ளிகள்)



B

திர்பார்க்கப்பட்ட விடைகளும் புள்ளிவழங்கும் திட்டமும்

வினா 1

(1) (அ) (i)

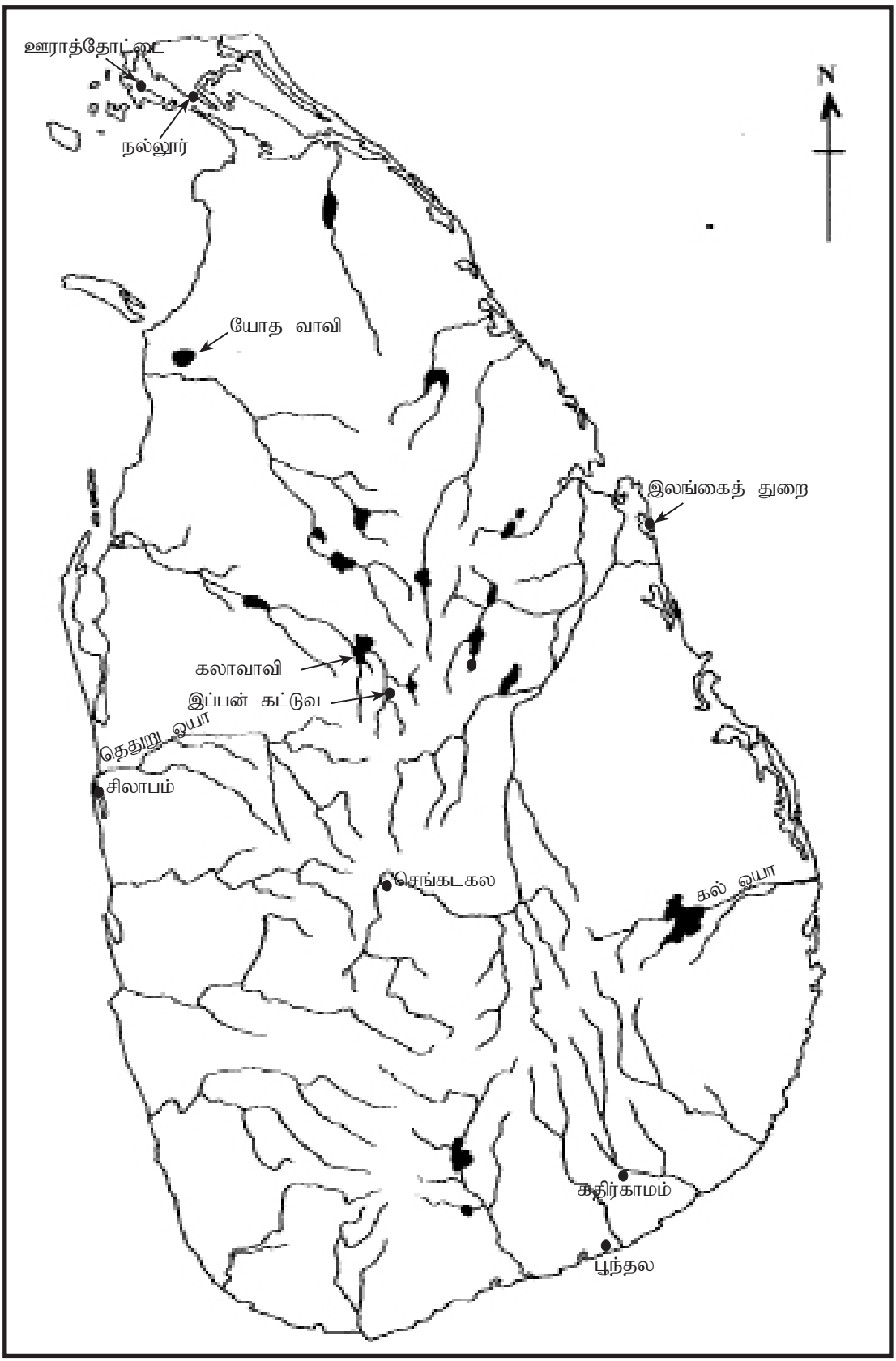

(10 புள்ளிகள்)

(1) (அ) (ii)

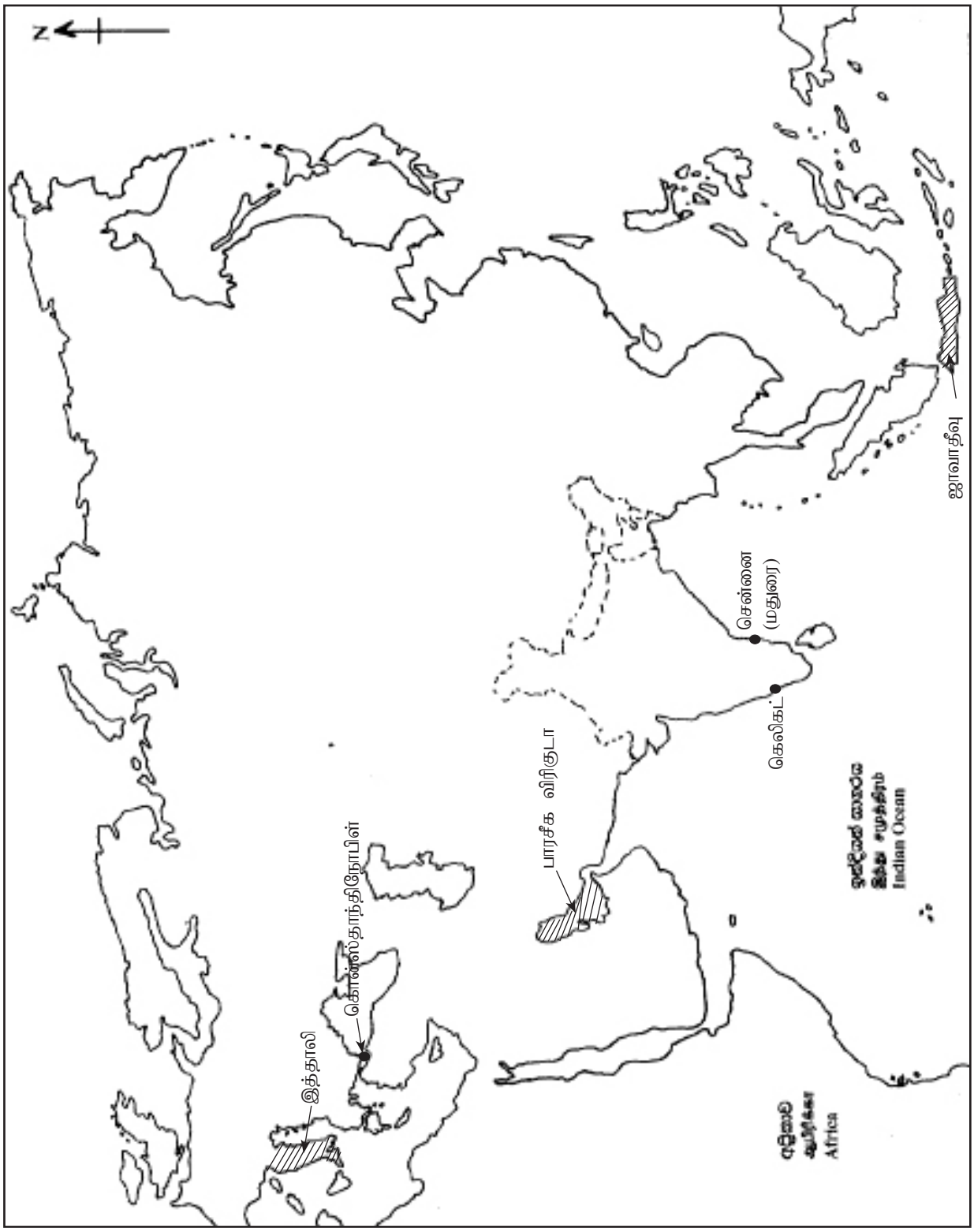

(08 புள்ளிகள்)

(ஆ) (i) A - வாஸ்கொடகாமா

B - முதலாம் விஜயபாகு மன்னன் / மகா விஜயபாகு

C - வசபன்

D - பெனிடோ முசோலினி **(01 × 04 = 04 புள்ளிகள்)**

(ii) 1. - வெண்கல யானை விளக்கு / தெடிகம யானை விளக்கு

2. - சூதிகரதூபி / தெடிகம கொட்ட விகாரை

3. - வெண்கலம்

4. - முதலாம் பராக்கிரமபாகு / மகா பராக்கிரமபாகு **(01 × 04 = 04 புள்ளிகள்)**

(iii) 1. - சிவன் கோயில்

2. - சிவ / சைவம் / இந்து

3. - பொலன்னறுவை / புலஸ்திநகர்

4. - சோழர் **(01 × 04 = 04 புள்ளிகள்)**

1ஆம் வினாவுக்கு விடையளிக்கப்பட்ட விதம் பற்றிய அவதானிப்புகளும் முடிவுகளும் ஆலோசனைகளும்:

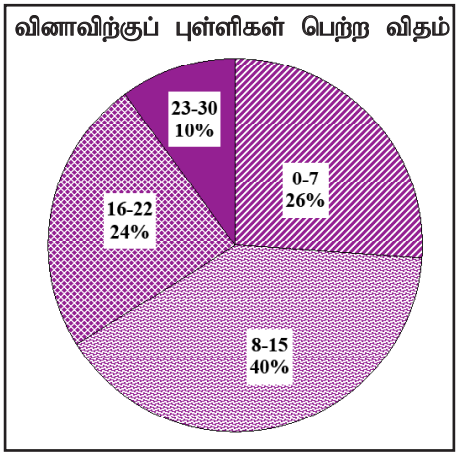

01 ஆம் வினா கட்டாயமானது. எனினும் இவ்வினாவிற்கு விடையளித்திருப்போர் 99% ஆகும். இந்த வினாவுக்கான புள்ளி 30 ஆகும்.

00 - 07 ஆயிடையில் 26%
08 - 15 ஆயிடையில் 40%
16 - 22 ஆயிடையில் 24%
23 - 30 ஆயிடையில் 10%

புள்ளிகளைப் பெற்றுள்ளனர்.

இந்த வினாவுக்கு 23 புள்ளிகளையோ அதற்கு மேற்பட்ட புள்ளிகளையோ பெற்றவர்கள் 10% ஆவர். 07 புள்ளிகளையோ அதற்குக் குறைந்த புள்ளிகளையோ பெற்றுள்ளோர் 26% ஆவர்.

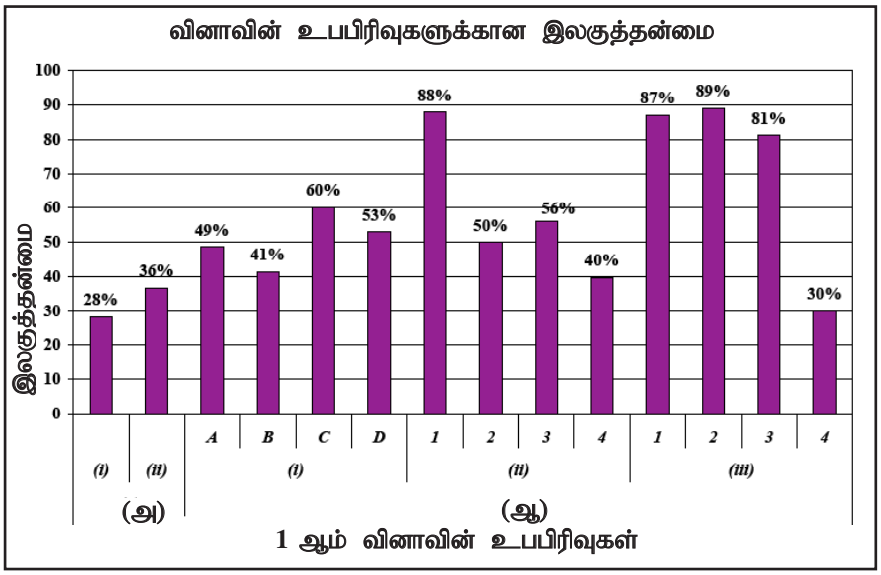

★ இவ்வினா 14 உபபிரிவுகளைக் கொண்டுள்ளது. அவற்றில் 4 உபபிரிவுகள் மாத்திரமே 80% இற்கும் கூடிய இலகுதன்மையைக் காட்டுகின்றது. இவ்வினாவில் கூடிய இலகுதன்மையைக் காட்டுவது (ஆ) பிரிவின் (iii) (2) ஆகும். அதன் இலகுதன்மை 89% ஆகும். குறைந்த இலகுதன்மையைக் காட்டுவது (அ) (i) பிரிவாகும். அதன் இலகுதன்மை 28% ஆகும்.

பகுதி II

வினா 2

தேர்ச்சி : **இலங்கையின் வரலாற்றுக்கு முற்பட்ட காலத்துக்குரிய குடியேற்றங்களின் பரம்பல், அடிப்படை இயல்புகள், வாழ்க்கை முறை, உணவுப் பழக்கம், சடங்கு சம்பிரதாய முறைகள் தொடர்பாக சொல்வர்.**

2. (i) இலங்கையின் வரலாற்றுக்கு முற்பட்ட காலப்பகுதிக்குரிய மனிதன் வாழ்ந்த சூழலியல் வலயங்கள் **மூன்றினைப்** பெயரிடுக. (03 புள்ளிகள்)

(ii) வரலாற்றுக்கு முற்பட்ட மனிதன் வாழ்ந்ததாகக் கருதப்படுகின்ற கரையோரத்து திறந்த வாழ்விடங்கள் காணப்பட்ட **இரண்டு** இடங்களையும் கற்குகை வாழ்விடங்கள் காணப்பட்ட இடங்கள் **இரண்டையும்** பெயரிடுக. (04 புள்ளிகள்)

(iii) வரலாற்றுக்கு முற்பட்ட காலத்தில் வாழ்ந்த மனிதனின் உணவு முறைகள், அவர்கள் வாழ்ந்த பல்வேறு சூழல்களுக்கு அமைய வடிவமைக்கப்பட்டிருந்த விதத்தை **இரண்டு** உதாரணங்களின் துணையுடன் எடுத்துக்காட்டுக. (05 புள்ளிகள்)

(iv) ஆதி வரலாற்றுக் காலத்தில் வாழ்ந்த ஒருவர் இறந்த பின்னர் பின்பற்றப்பட்டிருக்கலாம் எனக் கருதப்படும் மரணச் சடங்கு முறைகளை **இரண்டு** காரணிகளின் துணையுடன் விளக்குக. (06 புள்ளிகள்)

2. (i)
- ⋆ தாழ்நில அதிவரள் வலயம்
- ⋆ தாழ்நில குறைவரள் வலயம்
- ⋆ தாழ்நில உலர் வலயம்
- ⋆ தாழ்நில இடை உலர் வலயம்
- ⋆ மலை நாட்டு உலர் வலயம்
- ⋆ தாழ்நில இடை ஈரவலயம்
- ⋆ மலை நாட்டு ஈரவலயம்
- ⋆ உயர் மலைநாட்டு ஈரவலயம்

(01 × 03 = 03 புள்ளிகள்)

(ii)
- கரையோர திறந்த வாழ்விடங்கள்
  - மினிஹாகல்கந்தை
  - பதிராஜவெல
  - பூந்தலை
- கற்குகை வாழிடங்கள்
  - பாகியன்கல
  - பட்டதொம்பலென
  - கிதுல்கலபெலிலென
  - பொத்தானை
  - அலிகல
  - அத்தனகொட அலுலென

(01 × 04 = 04 புள்ளிகள்)

(iii)
- தாழ் நிலஉலர் வலயம் - விலங்குகளை வேட்டையாடி உணவைப் பெற்றுக் கொள்ளல்.
- தாழ்நில ஈரவலயம் - காட்டு ஈரப்பலா, கிழங்குவகை, காட்டுவாழை, நத்தைகள்.
- கரையோர வலயம் - உப்பினை பயன்படுத்தியமை, களப்பு நத்தைகள்
- நதிகள், கால்வாய்கள் - நன்னீர் மீன்

(02 + 03 = 05 புள்ளிகள்)

(iv)

- பாரிய கற்பாறைகளை ஒன்று சேர்த்து சதுர வடிவில் மயானத்தை அமைத்துக் கொள்ளல்.
- மனித சடலங்கள் எரித்துப் பெறப்பட்ட அஸ்தி (சாம்பல்) மட்பாண்டங்களில் பாதுகாத்து வைக்கப்பட்டன. இது அஸ்தி வைக்கப்பட்ட கல்லறை மயானம் எனவும் அழைக்கப்படும்.

  உதாரணம் - இப்பன்கட்டுவை கல்லறை மயானம்
  யாப்புஹுவை கல்லறை மயானம்
  யட்டிகல் பொத்த கல்லறை மயானம்
- களிமண் பாத்திரங்களில் பாதுகாக்கப்பட்ட அஸ்தி (சாம்பல்) குழி தோண்டிப் புதைக்கப்பட்டிருந்தது. இது அஸ்திக் கலசம் வைக்கப்பட்ட புதைகுழி மயானம் என அழைக்கப்பட்டது.
- களிமண் ஓட மயானம்

  பச்சைக் களிமண்ணினால் செய்யப்பட்ட இடம் போன்ற அமைப்பினுள் மனித எலும்புக் கூட்டினைத் தகனம் செய்து அதன் அஸ்தியை களிமண் பாத்திரத்தில் இட்டு அதனுள் வைத்தல்.

  உதாரணம் - ஹல்துமுல்ல, பெரகல, உடரஞ்சாமட மயானங்கள்.

(02 + 04 = 06 புள்ளிகள்)

2ஆம் வினாவுக்கு விடையளிக்கப்பட்ட விதம் பற்றிய அவதானிப்புகளும் முடிவுகளும் ஆலோசனைகளும்:

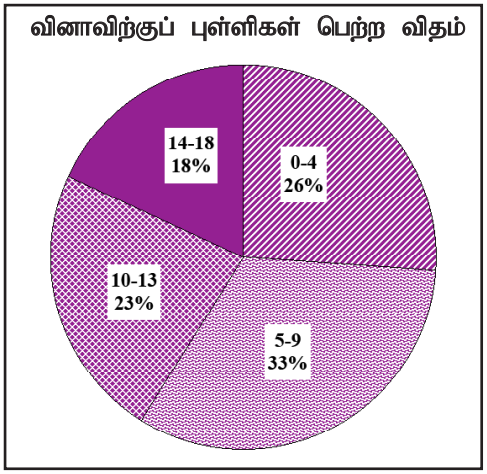

02 ஆம் வினாவைத் தெரிவு செய்தோர் 93% ஆகும். இந்த வினாவுக்கான புள்ளிகள் 18 ஆகும்.

00 - 04 ஆயிடையில் 26%
05 - 09 ஆயிடையில் 33%
10 - 13 ஆயிடையில் 23%
14 - 18 ஆயிடையில் 18%

புள்ளிகளைப் பெற்றுள்ளனர்.

இந்த வினாவுக்கு 14 அல்லது அதற்குக் கூடிய புள்ளிகளைப் பெற்றோர் 18% ஆவர். 04 அல்லது அதற்குக் குறைந்த புள்ளிகளைப் பெற்றோர் 26% ஆவர்.

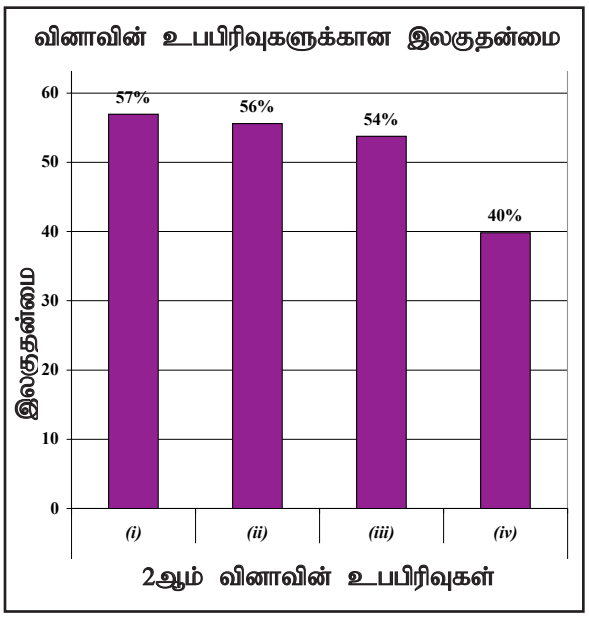

இந்த வினாவுக்கான உபபிரிவுகள் 4 ஆகும். அவைகளில் உபபிரிவு *(i)* கூடுதலான இலகுதன்மை கொண்டதாக காணப்படுகின்றது. அது 57% ஆகும். குறைந்த இலகுதன்மையை உபபிரிவு *(iv)* கொண்டுள்ளதுடன் அதன் இலகுதன்மை 40% ஆகும்.

இலங்கை வரலாற்றுக்கு முற்பட்ட கால மனிதர் வாழ்ந்த சூழலியல் வலயங்களின் இருப்பிடம் சூழலை முகாமைத்துவம் செய்த முறை முன் வரலாற்றுக் காலப்பகுதியில் மரணச்சடங்கு முறைகள் பற்றிய அறிவையும் விளக்கத்தையும் பரீட்சிப்பதற்கு இவ்வினா தயாரிக்கப்பட்டுள்ளதுடன் இவ்வினாவைத் தெரிவு செய்த பரீட்சார்த்திகளின் எண்ணிக்கை 93% ஆகும். வினாத்தாளில் பலரின் விருப்பு வினா இதுவாகும்.

இவ்வினாவில் பகுதி *(i)* இன் இலகுதன்மை 57% ஆகும். பாடநூலில் இதற்கான விடை குறிப்பாக இடம்பெற்றிருப்பதால் பரீட்சார்த்திகள் பாடநூலை நன்கு பயன்படுத்தியிருப்பின் உயர் அடைவு மட்டத்தைப் பெறக் கூடியதாக அமைந்திருக்கும்.

இவ்வினாவில் பகுதி *(ii)*, *(iii)* என்பவற்றுக்கு முறையே 56%, 54% இலகுதன்மை காட்டப்பட்டுள்ளது. பகுதி *(ii)* இனுக்கு விடையளிக்கும்போது மாணவர்கள் வினாவின் இரு பகுதிகளுக்கும் விடைகளை மாற்றி எழுதியிருந்தனர். கரையோர திறந்த வாழ்விடங்கள் கற்குகை வாழ்விடங்கள் என்பன அமைந்த இடங்களை மாணவர்கள் சரியாக வேறுபடுத்தி இனம்காண முடியாதிருந்தமையை காணக்கூடியதாயிருந்தது.

இவ்வினாவின் பகுதி *(iv)* இன் இலகுதன்மை 40% இற்கு குறைவாகக் காணப்படுகின்றது. இந்தப் பாடத்திற்கான மூன்று யுகங்களையும் ஒப்பிடக்கூடிய விதத்தில் ஒரு குறிப்பேட்டினைத் தொகுத்து கற்றல் - கற்பித்தல் செயற்பாட்டின்போது மாணவர்களுக்கு அதினூடாகச் சரியான அறிவினை வழங்க ஆலோசனை வழங்க முடியும்.

வினா 3

தேர்ச்சி : அரசுகளுக்கு முற்பட்ட காலத் தலைவர்கள் அழைக்கப்பட்ட முறை, அரசாட்சிக்குப் பின் காணப்பட்ட உத்தியோகத்தர்கள், அரசர்களின் கடமைகள் பற்றி எடுத்துரைப்பர்.

3. (i) இலங்கையின் கல்வெட்டுகளிற் குறிப்பிடப்பட்டுள்ள தகவல்களுக்கமைய கீழே *A*, *B*, *C* ஆகியவற்றினால் காட்டப்பட்டுள்ள ஒவ்வொருவரினதும் பதவிப்பெயரை ஒழுங்குமுறையில் எழுதுக.

A - குடும்பத் தலைவர்
B - கிராமத் தலைவர்
C - சில கிராமங்களின் அல்லது குளக்கட்டமைப்பின் தலைவர் (03 புள்ளிகள்)

(ii) மத்திய அரசாங்கத்துடன் தொடர்புடைய மேல்வரும் பணிகளுக்குப் பொறுப்பானவர்களின் பதவிப்பெயர்களை அடைப்புக்குறிக்குள் இருந்து தெரிவுசெய்து *A*, *B*, *C*, *D* ஒழுங்குமுறையில் எழுதுக.

A - அமைச்சரவையின் தலைவராகப் பணியாற்றுதல்
B - அரச திறைசேரிக்குப் பொறுப்பாக இருத்தல்
C - நகர ஆட்சி தொடர்பில் பணியாற்றுதல்
D - அரசனின் யானைகள் தொடர்பில் பணியாற்றுதல்

(வெதனா, மஹாமத, படகரிக, சேனபதி, ஹதி அதெக, நகர குத்திக, அச அதெக, பதகு) (04 புள்ளிகள்)

(iii) நாட்டு மக்கள் அரசனிடமிருந்து எதிர்பார்த்த சேவைகள் **இரண்டினை** விவரிக்குக. (05 புள்ளிகள்)

(iv) வசப மன்னன் இந்நாட்டின் முக்கியமான ஆட்சியாளர்களுள் ஒருவர் என்பதை **மூன்று** காரணிகளின் துணையுடன் எடுத்துக்காட்டுக. (06 புள்ளிகள்)

3. (i) *A* - குர்கபதி / கஹபதி
B - கமிக / கிராமிக / கிராமனி
C - பருமக **(01 × 03 = 03 புள்ளிகள்)**

(ii) *A* - மஹாமத *B* - படகரிக
C - நகர குத்திக *D* - ஹதி அதெக **(01 × 04 = 04 புள்ளிகள்)**

(iii) ★ நாட்டில் சமாதானத்தையும் பாதுகாப்பையும் நிலைநாட்டல்.
★ நாட்டில் பொருளாதார விருத்தியை ஏற்படுத்தல்.
★ பிரஜைகளிடையே ஆன்மீக வளர்ச்சியை ஏற்படுத்தல்.

(02 + 03 = 05 புள்ளிகள்)

(iv) - இலம்பகர்ண அரசவம்சத்தை ஆரம்பித்தல்.
- முழு இலங்கையையும் ஆட்சிபுரிதல்.
- நீர்ப்பாசன தொழில்நுட்ப நடவடிக்கைகள்
  - பாரிய குளங்களை அமைத்தல்.
  - சுரங்க வழி நீர்ப்பாசன முறையை அமைத்தல்.
  - ஒழுங்குபடுத்தப்பட்ட முறையில் வரி அறவிட்டமை.
- சமய வளர்ச்சிக்கான நடவடிக்கைகள்
  - விகாரைகளைப் புனரமைத்தல்
  - பராமரிப்பும் புதிதாக அமைத்தலும்.

(03 + 03 = 06 புள்ளிகள்)

3ஆம் வினாவுக்கு விடையளிக்கப்பட்ட விதம் பற்றிய அவதானிப்புகளும் முடிவுகளும் ஆலோசனைகளும்:

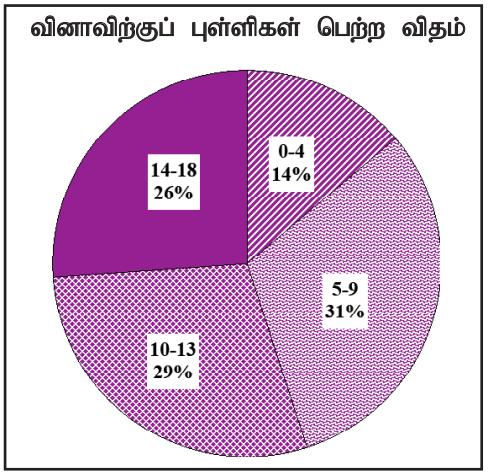

03 ஆம் வினாவை 93% மானோர் தெரிவு செய்துள்ளனர். இந்த வினாவுக்கான புள்ளிகள் 18 ஆகும்.

00 - 04 ஆயிடையில் 14%
05 - 09 ஆயிடையில் 31%
10 - 13 ஆயிடையில் 29%
14 - 18 ஆயிடையில் 26%
புள்ளிகளைப் பெற்றுள்ளனர்.

இந்த வினாவுக்கு 14 புள்ளிகள் அல்லது அதற்கு மேலான புள்ளிகளைப் பெற்றுள்ளோர் 26% ஆகும். 14% ஆனோர் பெற்ற புள்ளிகள் 04 அல்லது அதற்குக் குறைவானதாகும்.

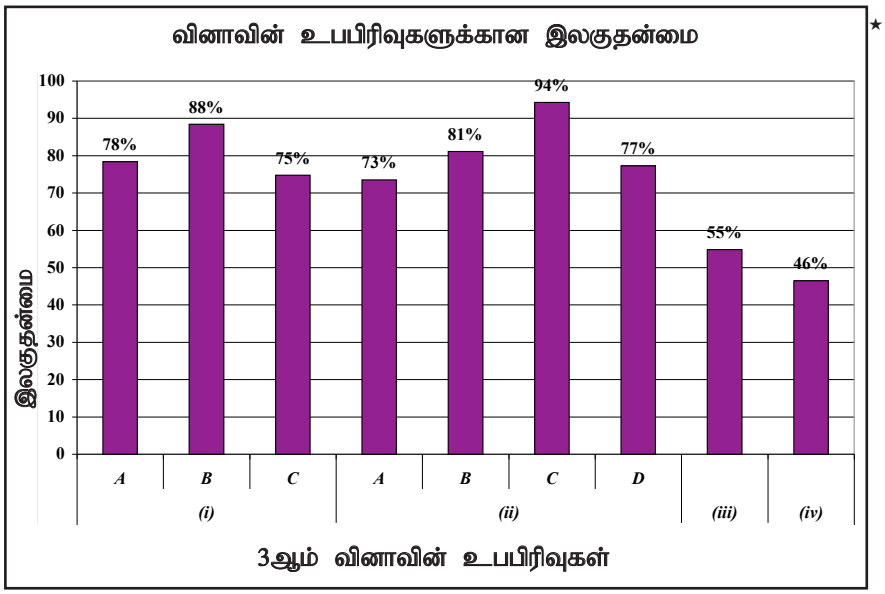

★ இவ்வினாவின் 9 உபபிரிவுகளில் இலகுதன்மை கூடிய உபபிரிவாக *(ii) C* காணப்படுவதுடன் அதன் இலகுதன்மை 94% ஆகும். இலகுதன்மை குறைந்த உபபிரிவாக *(iv)* காணப்படுவதுடன் அதன் இலகுதன்மை 46% ஆகும்.

வினா 4

தேர்ச்சி : **ஆரம்பகாலத்தில் காணப்பட்ட உயரிய நீர்ப்பாசன கட்டமைப்பு, பொலன்னறுவை காலத்துக்குப் பின் நீர்ப்பாசனத்தில் ஏற்பட்ட வீழ்ச்சி தொடர்பாக கலந்துரையாடுவர்.**

4. (i) எலகர கால்வாயின் மூலம் நீர் விநியோகிக்கப்பெறுகின்ற **மூன்று** குளங்களைப் பெயரிடுக. (03 புள்ளிகள்)

(ii) கீழே *A* தொடக்கம் *D* வரையில் தரப்பட்டுள்ள ஒவ்வொரு கூற்றுடனும் தொடர்புடைய விடையை ஒழுங்குமுறையில் எழுதுக.

A - மகியங்கனைக்குத் தெற்கில் மகாவலி கங்கைக்குக் குறுக்காக அமைக்கப்பட்ட அணைக்கட்டு

B - கலா வாவியிலிருந்து திச வாவி வரை நீரைக் கொண்டு செல்வதற்காக நிர்மாணிக்கப்பட்ட கால்வாய்

C - "விண்ணிலிருந்து மண்ணில் பொழியும் ஒரு துளி நீரையேனும் மனிதனுக்குப் பயன்படாது கடலில் கலப்பதற்கு இடமளிக்கக் கூடாது" என்ற கருத்தைக் கொண்டிருந்த அரசன்

D - மழைநீரினால் போஷிக்கப்படுகின்ற சிறிய குளங்களின் கட்டமைப்புக்கு வழங்கப்படும் பெயர்

(04 புள்ளிகள்)

(iii) (a) குளமொன்றின் முக்கியமான தொழினுட்பக் கூறுகள் **இரண்டைப்** பெயரிடுக.

(b) நீங்கள் மேலே (a) இல் பெயரிட்ட ஒரு தொழினுட்பக் கூறின் நிர்மாணிப்பு, பயன்பாடுகள் என்பன பற்றிச் சுருக்கமாக விளக்குக. (05 புள்ளிகள்)

(iv) பொலன்னறுவை இராச்சியத்தின் வீழ்ச்சிக்குப் பின்னர் பாரியளவிலான நீர்ப்பாசனத்திட்டங்கள் ஏன் தோன்றவில்லை என்பதனை **மூன்று** காரணிகளின் துணையுடன் விளக்குக. (06 புள்ளிகள்)

4. (i) - மின்னேரியா வாவி
- கவுடுளு வாவி
- கிரித்தலை வாவி
- கந்தளாய் வாவி

(01 × 03 = 03 புள்ளிகள்)

(ii) *A* - மினிப்பே அணை

B - யோத கால்வாய் / ஜய கங்கை

C - மகா பராக்கிரமபாகு / முதலாம் பராக்கிரமபாகு

D - வெவ்பிரபாதன / எல்லங்காவ

(01 × 04 = 04 புள்ளிகள்)

(iii) **(a)** - குளக்கட்டு, அலைதாங்கி, மடைக்கதவு (கலிங்கல்), கலிங்கற் தொட்டி, சுருங்கை

(b) - குறிப்பிடப்பட்ட தொழில் நுட்பத்தினது அமைப்பையும் பயனையும் குறிப்பிடல் வேண்டும்.

(02 + 01 + 01 + 01 = 05 புள்ளிகள்)

(iv) ★ ஈரவலயமாதலால் நீர்ப்பாசன நடவடிக்கைகள் முக்கியத்துவம் பெறவில்லை.

★ நீர்ப்பாசனத்திற்குப் பொருத்தமான பௌதிகக் காரணிகள் காணப்படாமை.

★ வாசனைத் திரவியங்களுக்கு முக்கியத்துவம் அளித்தல்.

★ நெற் செய்கைக்கு மேலதிகமாக பல்வேறு உணவு வகைகள் காணப்பட்டமை.
(பாக்கு, மிளகு, தென்னை, பலா, ஈரப்பலா)

★ பாரிய நீர்ப்பாசன முறைகளை உருவாக்கக்கூடிய சக்திமிக்க மன்னர்கள் உருவாகாமை.

★ ஆட்சியாளர்களால் பாதுகாப்புத் தொடர்பாக கவனம் செலுத்தாமை.

★ குளத்துடன் தொடர்பான தொழில்நுட்பம் இல்லாதொழிதல்.

(03 + 03 = 06 புள்ளிகள்)

வினா 5

தேர்ச்சி : **முதலாம், இரண்டாம் தலை நகரங்கள் தொடர்பான விடயங்களையும் ஆறாம் பராக்கிமபாகு தொடர்பான விடயங்களையும் முன்வைத்தல்.**

5. (i) மேல்வரும் *A, B, C* ஆகியவற்றினால் குறிப்பிடப்பட்டுள்ள பணிகளுடன் தொடர்புடைய ஆட்சியாளர்களை ஒழுங்குமுறையில் குறிப்பிடுக.

A - ஒரு நகரத்திற்குரிய அனைத்து கூறுகளையும் கொண்ட ஆட்சி நிலையமாக அனுராதபுரத்தை மாற்றியமை

B - சிகிரியாவை தனது ஆட்சி நிலையமாகத் தெரிவுசெய்தமை

C - இராசரட்டையை சோழரின் ஆட்சியிலிருந்து மீட்டு, ஆட்சி நிலையமாக பொலன்னறுவையைத் தெரிவுசெய்தமை (03 புள்ளிகள்)

(ii) *A* - வரலாற்று ரீதியான மாயரட்டைக்குரிய இரண்டாவது நகராக்க ஆட்சி நிலையங்கள் **இரண்டையும்**

B - வரலாற்று ரீதியான மலையரட்டைக்குரிய இரண்டாவது நகராக்க ஆட்சி நிலையங்கள் **இரண்டையும்** குறிப்பிடுக. (04 புள்ளிகள்)

(iii) இரண்டாவது நகராக்கக் காலத்தில் ஆட்சி நிலையங்களைத் தெரிவுசெய்வது தொடர்பில் செல்வாக்குச் செலுத்திய அடிப்படைக் காரணிகள் **இரண்டை** விளக்குக. (05 புள்ளிகள்)

(iv) ஆறாம் பராக்கிரமபாகு மன்னன் சிறந்த ஆட்சியாளனாகக் கருதப்படுவதற்கு ஏதுவான காரணிகள் **மூன்றினைக்** குறிப்பிட்டு, அவற்றைச் சுருக்கமாக விவரிக்குக. (06 புள்ளிகள்)

5. (i) *A* - பண்டுகாபய மன்னன்

B - முதலாம் காசியப்பன் / சீகிரிய காசியப்பன்

C - முதலாம் விஜயபாகு மன்னன் / மகாவிஜயபாகு மன்னன்.

(01 × 03 = 03 புள்ளிகள்)

(ii) *A* - தம்பதெனியா, குருநாகலை, யாப்பகுவ, கோட்டை

B - கம்பளை, கண்டி

(02 + 02 = 04 புள்ளிகள்)

(iii) ★ பாதுகாப்பு

★ மழைநீரை நம்பி நெல் வேளாண்மை செய்ய முடியுமாக இருக்கின்றமை.

★ வளர்ச்சியடைந்து வரும் வெளிநாட்டு வர்த்தகம் (வாசனைத் திரவியங்கள்)

★ கரையோர துறைமுகங்களை இலகுவாக அடையமுடியுமாயுள்ளமை.

(02 + 03 = 05 புள்ளிகள்)

(iv) ★ நாட்டை ஐக்கியப்படுத்தியமை

★ வன்னி பிரதேசத்தைக் கைப்பற்றிக் கொள்ளல்.

★ யாழ்ப்பாணத்தை வெற்றி கொண்டமை.

★ ஜோதிய என்பவனின் கிளர்ச்சியை அடக்குதல்.

★ பொருளாதார ரீதியில் நாட்டை வளப்படுத்தியமை.

★ கல்வி வளர்ச்சிக்கு பாரிய சேவையாற்றியமை.

★ இலக்கிய வளர்ச்சிக்குப் பாரிய சேவையாற்றியமை.

★ சமய சார்பு கொள்கையைக் கடைபிடித்தமை.

(03 + 03 = 06 புள்ளிகள்)

இலங்கைப் படத்தில் குறிக்கும்போது நிறங்களைப் பயன்படுத்தி இந்த வலயங்கள் தொடர்பாகத் தெளிவான விளக்கம் அளிப்பதோடு, குழுச்செயற்பாடுகள் மூலம் படத்தில் குறிக்கும் பயிற்சியில் மாணவர்களை ஈடுபடுத்துவதன் மூலம் இலகுதன்மையை அதிகரிக்கலாம்.

5 ஆம் வினாவில் பகுதி *(iii)* தொடர்பாகப் பெறப்பட்டுள்ள இலகுதன்மை 31% ஆகும். பரீட்சார்த்திகள் கேட்கப்பட்ட வினாவை விளங்கிக் கொள்ளாமையே இலகுதன்மை குறைவாகக் காணப்படுவதற்கான காரணமாகும். வினாவுக்கு ஏற்ற விடைகளை எழுத மாணவர்களைப் பயிற்றுவித்தல், மீட்டல் செயற்பாடுகள் என்பவற்றில் ஈடுபடுத்துதல் ஆகியவற்றின் மூலம் அடைவு மட்டத்தை உயர்த்தலாம்.

இவ்வினாவில் பகுதி *(iv)* இன் இலகுதன்மை 34% ஆகும். இலகுதன்மையை அதிகரிப்பதற்கு பல்வேறு அரசர்கள் பற்றி பாடநூலில் பரந்துள்ள தகவல்களை ஒன்றிணைத்து கற்றலின் முக்கியத்துவத்தை விளங்கிக்கொள்ளச் செய்தல் முக்கியமானதாகும்.

வினா 6

தேர்ச்சி : கண்டி இராசதானியில் ஏற்பட்ட முக்கிய அரசியல் நிகழ்வுகள் பொருளாதார நிலைமை, காணி உரிமை போன்ற பற்றி விளக்கிக் கூறுவர்.

6. (i) *A* - முதல் தடவையாக கண்டியில் சுதந்திரமான இராச்சியத்தை அமைத்த மன்னன்
B - கி.பி. 1580 இல் மலைநாட்டின் மீது படையெடுத்த சீதாவாக்கையின் ஆட்சியாளன்
C - தோனா கத்தரினா என்ற பெயரில் ஞானஸ்நானம் பெற்ற கரல்லியத்தே பண்டாரவின் மகள்
ஆகியோரின் பெயர்களை *A, B, C* ஒழுங்குமுறையில் எழுதுக. (03 புள்ளிகள்)

(ii) *A* - அரச மாளிகையின் பயன்பாட்டுக்காக ஒதுக்கப்பட்ட நிலம்
B - பௌத்த விகாரைகளின் பராமரிப்புக்காக வழங்கப்பட்ட நிலம்
C - பிரதானிகள் செய்த சேவைக்காக வழங்கப்பட்ட நிலம்
D - கோயில்களின் பராமரிப்புக்காக ஒதுக்கப்பட்ட நிலம்
ஆகியன என்ன பெயர்களால் அழைக்கப்பட்டன என்பதை *A, B, C, D* ஒழுங்குமுறையில் எழுதுக. (04 புள்ளிகள்)

(iii) முதலாம் விமலதர்மசூரிய மன்னன் கண்டி இராச்சியத்தில் தனது சட்டரீதியான உரிமையை உறுதிப்படுத்திக் கொள்வதற்காகப் பின்பற்றிய நடைமுறைகள் **இரண்டினைச்** சுருக்கமாக விளக்குக. (05 புள்ளிகள்)

(iv) போர்த்துக்கேயர், ஒல்லாந்தர் ஆகியோர் கண்டி இராச்சியத்தைக் கைப்பற்றுவதற்கு மேற்கொண்ட படையெடுப்புகள் தோல்வியடைந்தமையில் செல்வாக்குச் செலுத்திய காரணங்கள் **மூன்றினைச்** சுருக்கமாக விவரிக்குக. (06 புள்ளிகள்)

6. (i) *A* - சேனா சம்மத விக்கிரமபாகு
B - முதலாம் இராஜசிங்கன் / சீதாவாக்கை இராஜசிங்கன்
C - குசுமாசன தேவி

(01 × 03 = 03 புள்ளிகள்)

(ii) *A* - கபடாகம்
B - விஹாரகம்
C - நிந்தகம்
D - தேவாலகம்

(01 × 04 = 04 புள்ளிகள்)

(iii) ★ குசுமாசன தேவியை விவாகம் செய்து அரச உரிமையை உறுதிப்படுத்தல்.
★ ரோமன் கத்தோலிக்க மதத்தை விட்டு பௌத்த சமயத்தைத் தழுவுதல்.
★ விமலதர்மசூரியன் என்று பௌத்த பெயரைச் சூடியமை.
★ புனித தந்ததாதுவை கண்டிக்குக் கொண்டு செல்லல்.

(02 + 03 = 05 புள்ளிகள்)

(iv) ★ இயற்கை அரண்கள் காணப்பட்டமை. (மலை அரண், நதி அரண், வன அரண்)

★ மலைநாட்டின் பௌதிகச் சூழல் பற்றிய தெளிவின்மை

★ மலையக மக்கள் அரசனுக்கு விசுவாசமாக இருந்தமை.

★ மலையக மக்களின் கொரில்லாப் போர் முறை

★ மலையக மன்னர்களின் யுத்த தந்திரங்கள்

★ லஸ்கரீன் படை அரசின் பக்கம் சார்ந்தமை.

(03 + 03 = 06 புள்ளிகள்)

6ஆம் வினாவுக்கு விடையளிக்கப்பட்ட விதம் பற்றிய அவதானிப்புகளும் முடிவுகளும் ஆலோசனைகளும்:

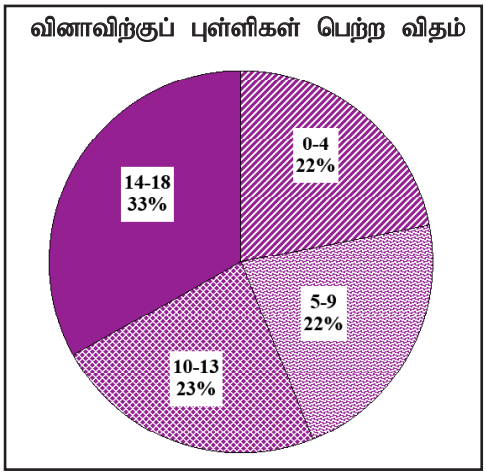

வினா இலக்கம் 06 இனை 53% ஆனோர் தெரிவு செய்துள்ளனர். இவ்வினாவுக்குரிய புள்ளிகள் 18 ஆகும்.

00 - 04 ஆயிடையில் 22%
05 - 09 ஆயிடையில் 22%
10 - 13 ஆயிடையில் 23%
14 - 18 ஆயிடையில் 33%

புள்ளிகளைப் பெற்றுள்ளனர்.

இந்த வினாவுக்கு 14 அல்லது அதற்கு மேல் புள்ளிகளைப் பெற்றோர் 33% ஆகும். 22% ஆனோர் 04 அல்லது அதைவிட குறைந்த புள்ளிகளைப் பெற்றுள்ளனர்.

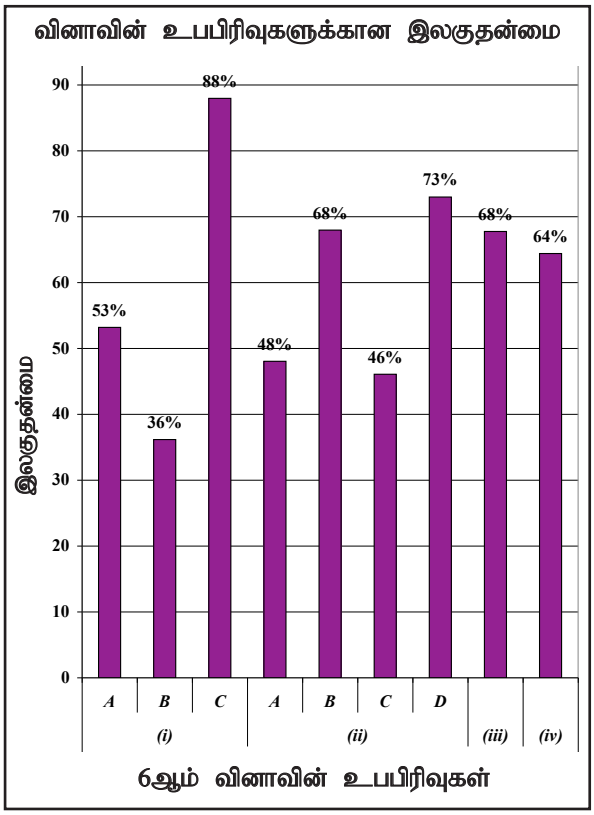

★ இந்த வினாவுக்குரிய உபபிரிவுகள் 9 இல் அதிக இலகுதன்மையாக *(i) C* இருப்பதுடன் அதன் இலகுதன்மை 88% ஆகும். இலகுதன்மை குறைந்தது *(i) B* பகுதியாக இருப்பதுடன் அதன் இலகுதன்மை 36% ஆகும்.

கண்டி இராச்சியத்தில் நிகழ்ந்த முக்கிய அரசியல் சம்பவங்கள், பொருளாதார தகவல்கள், காணி உரிமையினூடாக அதன் தனித்துவம் என்பன பற்றிய அறிவு விளக்கம் ஆகியவற்றை பரீட்சிப்பதற்காக இவ்வினா தயாரிக்கப்பட்டுள்ளது. இவ்வினாவின் மொத்த இலகுதன்மை 60% ஆகும்.

இவ்வினாவைத் தெரிவு செய்தோர் 53% ஆவர். ஏனைய வினாக்களுக்கு சார்பளவில் இவ்வினா சாதாரணமட்ட இலகுதன்மையை காட்டுவதுடன் பகுதி *(i)* இன் *A, B, C* ஆகிய மூன்று உபபிரிவுகளைக் கொண்டுள்ளது. அவற்றின் இலகுதன்மை முறையே 53%, 36%, 88% ஆகும். *(i)* உபபிரிவு *B* குறைவான இலகுதன்மை பெறுவதற்கு கண்டி இராச்சியத்தின் அரசர்கள் பற்றிய அறிவும் விளக்கமும் குறைந்தளவில் காணப்பட்டமையே காரணமாகும்.

இவ்வினாவில் பகுதி *(ii)* இன் *A, B, C, D* என நான்கு உபபிரிவுகளைக் கொண்டது. உபபிரிவு *A, C* என்பவற்றின் இலகுதன்மை 50% இற்கும் குறைவாகும். உபபிரிவு *B, D* ஆகியவற்றின் இலகுதன்மை 65% இனை விட கூடுதலாகும். *A, C* என்பவற்றின் விடைகளை மாற்றி எழுதியிருந்தமையே குறைந்த இலகுதன்மை பெற்றதற்கான காரணமாகும். இத்தகவல்களை மாணவர்கள் சரியாக உறுதியாக்கிக் கொள்ளவில்லை என்பது தெரிய வந்துள்ளது. இவ்விடயங்களை உறுதிப்படுத்துவதற்கு அட்டவணைகளைப் பயன்படுத்துதல் மிகவும் பயனுள்ளதாகும்.

இவ்வினாவின் பகுதி *(iii)* இன் இலகுதன்மை 68% ஆகும். இது இலகுவாக விடை எழுதக்கூடிய வினாவாக இருந்தபோதும் வினாவுக்குரிய விடயங்களை மாணவர்கள் அறிந்திருந்தபோதும் அதனை விளக்கி எழுதும் திறன் மாணவர்களிடம் இல்லாதிருந்தமையே சிக்கலானதாகத் தெரிய வந்துள்ளது. கட்டமைப்பு வினாக்களுக்கு விடையெழுதும் முன் பயிற்சிகளை ஆசிரியர் செய்வித்தல் இச்சிக்கலுக்குத் தீர்வாக அமையும்.

இவ்வினாவின் பகுதி *(iv)* இன் இலகுதன்மை 64% ஆகும். மேற்குறிப்பிடப்பட்ட வழிமுறையை ஆசிரியர் பின்பற்றுவதுடன் வகுப்பறையில் உரிய நேர எல்லைக்குள் வினாக்களுக்கு விடை எழுதுவதற்கு திசைமுகப்படுத்தல் பயிற்சிகளில் மாணவர்களை ஈடுபடுத்திப் பயிற்சியளித்தல் வேண்டும்.

வினா 7

தேர்ச்சி : பிரித்தானியர், இலங்கையைக் கைப்பற்றிக் கொண்ட முறை, பிரித்தானியர்களிடமிருந்து விடுதலை பெறுவதற்காக மேற்கொள்ளப்பட்ட முயற்சிகள் தொடர்பாக விளக்கமாக கருத்துச் சொல்வார்.

7. (i) பிரித்தானியர்களால் இந்தியாவில் அமைக்கப்பட்ட வர்த்தக நிலையங்கள் **மூன்றினைப்** பெயரிடுக.
(03 புள்ளிகள்)

(ii) இலங்கை மீது பிரித்தானியர்கள் கவனம் செலுத்துவதற்கு ஏதுவாய் அமைந்த காரணங்கள் **இரண்டினைக்** குறிப்பிடுக.
(04 புள்ளிகள்)

(iii) இலங்கையின் கரையோரப் பிரதேசங்களைக் கைப்பற்றிய பிரித்தானியருக்கு ஏன் மலையக இராச்சியத்தைக் கைப்பற்ற வேண்டிய தேவையேற்பட்டது என்பதனை **இரண்டு** காரணிகளை அடிப்படையாகக் கொண்டு சுருக்கமாக விவரிக்குக.
(05 புள்ளிகள்)

(iv) கி.பி. 1818 இல் பிரித்தானியருக்கு எதிரான கலகம் ஏற்படுவதிற் செல்வாக்குச் செலுத்திய காரணங்கள் **மூன்றினைச்** சுருக்கமாக விளக்குக.
(06 புள்ளிகள்)

7. (i) - கல்கத்தா
- பம்பாய்
- மதுரை

(01 × 03 = 03 புள்ளிகள்)

(ii) - இலங்கையின் அமைவிட முக்கியத்துவம்
- இலங்கையில் கறுவா உட்பட பெறுமதி வாய்ந்த வர்த்தகப் பொருட்கள் கிடைக்கப் பெற்றமை.

(02 × 02 = 04 புள்ளிகள்)

(iii)
- கடவைகளில் மன்னனுக்கு வரி செலுத்த வேண்டியிருந்தமை.
- கொழும்புக்கும் திருகோணமலைக்கும் இடையே தொடர்புகளை மேற்கொள்வதற்கு மலையக அரசு தடையாக இருந்தமை.
- நாட்டின் மத்தியில் சுதந்திரமான அரசு ஒன்று இருப்பது பிரித்தானிய நிர்வாகத்திற்கு இடையூறாக இருந்தமை.
- கரையோரத்திலும் மலைநாட்டு எல்லையிலும் காவல் நிலையங்களை வைத்திருப்பதனால் யுத்தச் செலவுகள் அதிகரித்தமை.

(02 + 03 = 05 புள்ளிகள்)

(iv)
- கண்ணால் காணாத மன்னனை மக்கள் விரும்பாமை.
- மலைநாட்டுப் பிரதானிகளை புறக்கணித்தமை.
- பௌத்த சமயத்தையும் கலாசாரத்தையும் கவனத்தில் கொள்ளாமை.
- சிங்கள மக்கள் பெரும்பான்மையாக வாழும் வெல்லஸ்ஸ பிரதேசத்திற்கு முஸ்லிம் முகாந்திரம் ஒருவர் நியமிக்கப்பட்டமை.
- கண்டி சிம்மாசனத்துக்கு உரிமையாளன் ஒருவன் வெளிப்பட்டமை. **(03 + 03 = 06 புள்ளிகள்)**

7ஆம் வினாவுக்கு விடையளிக்கப்பட்ட விதம் பற்றிய அவதானிப்புகளும் முடிவுகளும் ஆலோசனைகளும்:

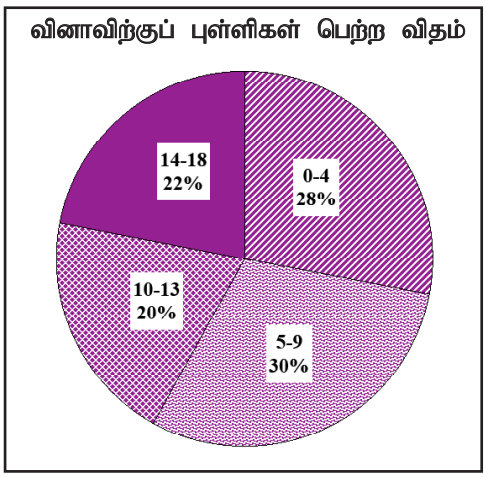

07 ஆம் வினாவைத் தெரிவுசெய்தோர் 78% ஆவர். இந்த வினாவுக்கான புள்ளிகள் 18 ஆகும்.

00 - 04 ஆயிடையில் 28%
05 - 09 ஆயிடையில் 30%
10 - 13 ஆயிடையில் 20%
14 - 18 ஆயிடையில் 22%

புள்ளிகளைப் பெற்றுள்ளனர்.

இவ்வினாவுக்கு 14 அல்லது அதை விட அதிகமான புள்ளிகளைப் பெற்றவர்கள் 22% ஆகும். 28% ஆனோர் 04 அல்லது அதற்குக் குறைந்த புள்ளிகளைப் பெற்றுள்ளனர்.

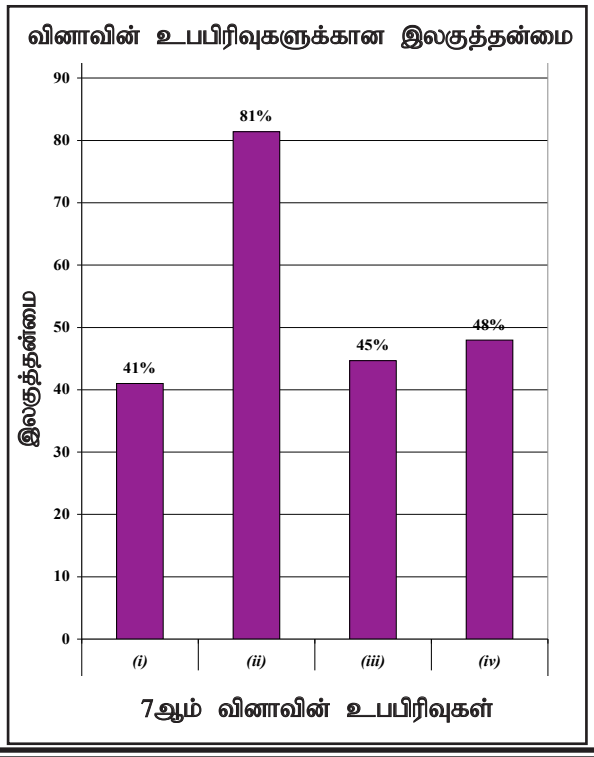

★ இந்த வினாவுக்கான உபபிரிவுகள் 4 இல் கூடுதலான இலகுதன்மையைக் கொண்டது *(ii)* பகுதியாகும். அதன் இலகுத்தன்மை 81% ஆகும். குறைந்த இலகுத்தன்மையைக் கொண்டது *(i)* பகுதி காணப்படுவதுடன் அதன் இலகுத்தன்மை 41% ஆகும்.

பகுதி III

வினா 8

தேர்ச்சி : **பிரான்ஸ், ர்'யா போன்ற நாடுகளில் வாழ்ந்தோர் தமது உரிமைகளைப் பெற்றுக் கொள்வதற்காக செய்த முயற்சிகள் அதன் விளைவுகள் பற்றி தெளிவாக விளங்கிக் கொள்வர்.**

8. (i) பிரெஞ்சுப் புரட்சியில் செல்வாக்குச் செலுத்திய கருத்துகளை முன்வைத்த தத்துவஞானிகள் **மூவரைப்** பெயரிடுக. (03 புள்ளிகள்)

(ii) மேல்வரும் *A, B, C, D* ஆகியவற்றினால் காட்டப்பட்டுள்ள ஒவ்வொரு தகவலுக்குமுரிய விடைகளை அடைப்புக்குறிக்குள்ளிலிருந்து தெரிவுசெய்து ஒழுங்குமுறையில் எழுதுக.

A - அமெரிக்கப் புரட்சி ஏற்படுவதற்கு அடிப்படையாக அமைந்த சம்பவம்
B - சுதந்திர ஐக்கிய அமெரிக்கக் குடியரசின் முதலாவது ஜனாதிபதி
C - பிரெஞ்சுப் புரட்சியின்போது அந்நாட்டின் ஆட்சியாளர்
D - ரஷ்யப் புரட்சிக்குத் தலைமைதாங்கியவர்

(வீ. ஐ. லெனின், பதினாறாம் லூயி, நெப்போலியன் போனபாட், பொஸ்டன் தேநீர் விருந்து, டெனிஸ் மைதான உறுதிமொழி, ஜோர்ஜ் வாஷிங்டன், ஆபிரகாம் லிங்கன், லியோன் ட்ரோட்ஸ்கி) (04 புள்ளிகள்)

(iii) பிரெஞ்சுப் புரட்சியின் பின்னர் அந்நாட்டில் ஏற்பட்ட மாற்றங்கள் **இரண்டினைச்** சுருக்கமாக விளக்குக. (05 புள்ளிகள்)

(iv) ரஷ்யப் புரட்சியினால் அந்நாட்டில் ஏற்பட்ட அரசியல், பொருளாதார மாற்றங்கள் ஒவ்வொன்றை உதாரணம் தந்து விவரிக்குக. (06 புள்ளிகள்)

8. (i) - ரூசோ
- வோல்டேயர்
- மொன்டெஸ் கியூ **(01 × 03 = 03 புள்ளிகள்)**

(ii) *A* - பொஸ்டன் தேநீர் விருந்து
B - ஜோர்ஜ் வெரிங்டன்
C - பதினாறாம் லூயி
D - வீ. ஐ. லெனின் **(01 × 04 = 04 புள்ளிகள்)**

(iii) ★ பிரான்சின் முடியாட்சி வீழ்ச்சியுற்றமை.
★ பிரான்ஸில் கூட்டாட்சி முறையொன்று தோன்றியது.
★ விவசாயிகளுக்கு சலுகைகள் கிடைத்தமை. (விவசாய நிலங்கள் வழங்கப்பட்டமை.)
★ 1791 ஆம் ஆண்டில் அடிப்படை உரிமைகள் தொடர்பான பிரகடனம் வெளியிட்டமை.
(02 + 03 = 05 புள்ளிகள்)

(iv) ★ அரசியல் மாற்றங்கள்
- சார் மன்னர்களின் ஆட்சி வீழ்ச்சியடைந்தமை.
- சமவுடமை ஆட்சி உருவானமை.
- நாட்டு நிர்வாகத்தை நடாத்த மத்தியதர வகுப்பினர் நியமிக்கப்பட்டனர்.
- ரஷ்யா, சோவியத் சமவுடமைக் குடியரசு என்ற பெயரில் அறிமுகமானது.

★ பொருளாதார மாற்றங்கள்
- நிலமானிய முறை முற்றாக நீக்கப்பட்டது.
- சிறிய விவசாய பண்ணைகள், பாரிய விவசாயப் பண்ணைகளாக மாற்றமடைந்தமை.
- தொழிற்சாலைகள் வங்கி, போக்குவரத்து போன்றன மக்கள் மயப்படுத்தப்பட்டமை.
- சொந்த முயற்சியை விட பொது முயற்சிகள் ஏற்றுக் கொள்ளப்பட்டமை.

(03 + 03 = 06 புள்ளிகள்)

பகுதி *(iii)* இன் இலகுதன்மை 24% ஆகும். பிரெஞ்சுப் புரட்சி தொடர்பாகப் பாடநூலில் சமூக, அரசியல், பொருளாதார பிரிவுகளின் கீழ் தகவல்கள் இருந்தபோதும் அத்தகவல்களைப் பிரித்தெடுத்துக் காட்டுவதற்கு முடியாதிருந்துள்ளது. பாடநூலைக் கையாளுவதிலுள்ள குறைபாடு, தகவல்களை முன்வைப்பதிலுள்ள குறைபாடுகள் வெளிப்படுத்தப்பட்டுள்ளன.

இவ்வினாவின் பகுதி *(iv)* இன் இலகுத்தன்மை 20% ஆகும். முழுமையான வினாவில் குறைந்த இலகுத்தன்மை பெற்ற பகுதி இதுவாகும். வினாவில் கேட்கப்பட்ட அரசியல், பொருளாதார மாற்றங்களை குறிப்பாக வகைப்படுத்திக்காட்ட பரீட்சார்த்திகளுக்கு முடியாதிருந்தமை இதற்கான காரணமாகும். இத்தகைய வினாக்களுக்கு விடை எழுதும் பயிற்சிகளை வழங்குவது இதனை விடவும் கூடுதலான இலகுத்தன்மையைப் பெறுவதற்கு உதவியாக அமையும்.

வினா 9

தேர்ச்சி : உலக அதிகாரப் போட்டி சம்பந்தமாகவும் அதன் விளைவுகள் தொடர்பாகவும் எடுத்துரைப்பர்.

9. (i) குடியேற்றங்களை அமைத்த ஐரோப்பிய நாடுகள் **மூன்றினைப்** பெயரிடுக. (03 புள்ளிகள்)

(ii) மேல்வரும் *A, B, C, D* ஆகியவற்றினால் குறிப்பிடப்படும் விபரங்களுடன் தொடர்புடையவர்களை அடைப்புக்குறிக்குள் இருந்து தெரிவுசெய்து ஒழுங்குமுறையில் குறிப்பிடுக.

A - சிறு இராச்சியங்கள் பலவற்றை ஒன்றிணைத்து ஜேர்மனி என்ற பெயரில் ஒரு நாட்டை உருவாக்கியவர்

B - காலனித்துவ ஆட்சியை ஏற்படுத்தும் கொள்கையைக் கடைப்பிடித்த ஜேர்மனியப் பேரரசர்

C - இரண்டாம் உலக மகாயுத்தத்தின்போது நட்பு நாடுகள் அணிக்குத் தலைமைதாங்கிய பிரித்தானியப் பிரதமர்

D - இரண்டாம் உலக மகாயுத்தத்தின் இறுதியில் எதுவித நிபந்தனைகளும் இன்றி அடிபணியும் ஒப்பந்தத்தில் கையொப்பமிட்ட ஜப்பானியப் பேரரசர்

(ஹிரோஹிதோ, முட்சுஹிதோ, வின்ஸ்ற்ரன் சேர்ச்சில், லோய்ட் ஜோர்ஜ், இரண்டாம் வில்லியம் கைசர், ஒட்டோ வொன் பிஸ்மார்க், அடோல்ப் ஹிட்லர், ஜோசப் ஸ்டாலின்) (04 புள்ளிகள்)

(iii) உலக சமாதானத்தைப் பாதுகாப்பதற்காக ஐக்கிய நாடுகள் சபை பின்பற்றக்கூடிய நடவடிக்கைகள் **இரண்டினைச்** சுருக்கமாக விளக்குக. (05 புள்ளிகள்)

(iv) இரண்டாம் உலக மகாயுத்தத்தின் **மூன்று** விளைவுகளைச் சுருக்கமாக விவரிக்குக. (06 புள்ளிகள்)

9. (i)
- போர்த்துக்கல்
- ஸ்பெயின்
- ஒல்லாந்து
- பிரித்தானியா
- பிரான்ஸ்
- பெல்ஜியம்

(01 × 03 = 03 புள்ளிகள்)

(ii) *A* - ஒட்டோ வொன் பிஸ்மார்க்

B - இரண்டாம் வில்லியம் கைசர்

C - வின்ஸ்ற்ரன் சேர்ச்சில்

D - ஹிரோ ஹிதோ

(01 × 04 = 04 புள்ளிகள்)

(iii) ★ பொருளாதாரத் தடையை விதித்ததல்.

★ சமாதானப் படைகளை அனுப்புதல்.

★ அணு ஆயுத கட்டுப்பாட்டினை செயல்படுத்தல்.

★ பேச்சுவார்த்தைகளுக்கு இடமமைத்துக் கொடுத்தல்.

(02 + 03 = 05 புள்ளிகள்)

(iv) ★ அச்சு நாடுகளின் அணி தோல்வியைத் தழுவின.

★ மனித உயிர்கள் கொல்லப்பட்டதோடு சொத்துக்களும் அழிந்தன.

★ குடியேற்ற நாடுகள் பல சுதந்திரம் பெற்றன.

★ உலக வல்லரசுகளில் மாற்றம் ஏற்பட்டது. (அமெரிக்காவும் ரஷ்யாவும்)

★ ஐக்கிய நாடுகள் சபை தோன்றியது.

★ புதிய அரசுகள் தோன்றின.

★ மார்சல் திட்டம் ஆரம்பமானது.

★ கெடுபிடியுத்தம் தோன்ற ஆரம்பித்தது.

★ அணு ஆயுத பிரயோகத்தால் எதிர்கால சந்ததிகள் பாதிக்கப்பட்டன.

★ அணிசேரா நாடுகள் அமைப்பு உருவாகியமை.

★ ஜெர்மனி இரண்டாகப் பிரிக்கப்பட்டமை. **(03 + 03 = 06 புள்ளிகள்)**

9ஆம் வினாவுக்கு விடையளிக்கப்பட்ட விதம் பற்றிய அவதானிப்புகளும் முடிவுகளும் ஆலோசனைகளும்:

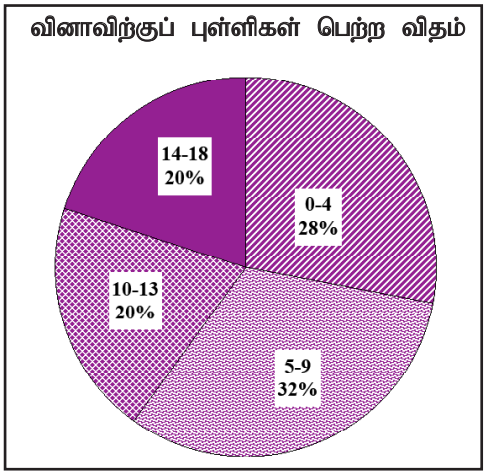

09 ஆம் வினாவை 65% த்தினர் தெரிவு செய்துள்ளனர். இந்த வினாவுக்கான புள்ளிகள் 18 ஆகும்.

00 - 04 ஆயிடையில் 28%
05 - 09 ஆயிடையில் 32%
10 - 13 ஆயிடையில் 20%
14 - 18 ஆயிடையில் 20%

புள்ளிகளைப் பெற்றுள்ளனர்.

இந்த வினாவுக்கு 14 அல்லது அதற்குக் கூடிய புள்ளிகளைப் பெற்றோர் 20% ஆகும். 28% ஆனோர் 04 அல்லது அதற்கும் குறைந்த புள்ளிகளைப் பெற்றுள்ளனர்.

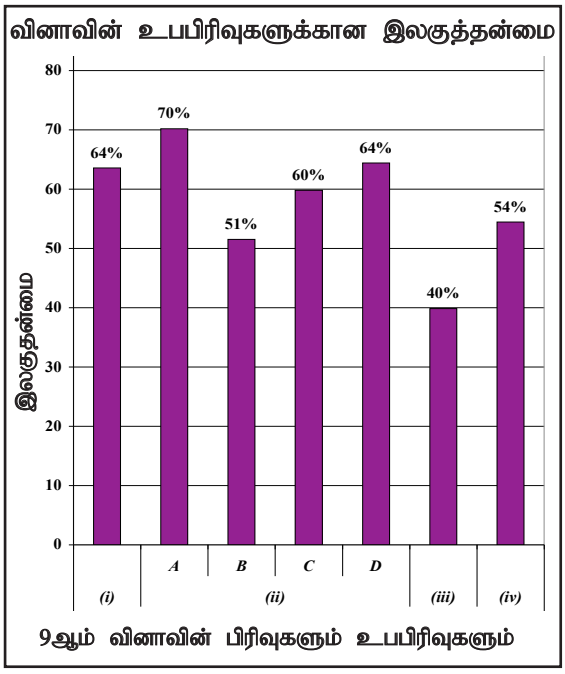

9ஆம் வினாவின் பிரிவுகளும் உபபிரிவுகளும்

★ இந்த வினாவின் உபபகுதிகள் 7 இல் இலகுத்தன்மை கூடுதலாகக் காணப்படுவது *(ii) A* இல் ஆகும். அது 70% ஆகும். குறைந்த இலகுத்தன்மை பகுதி *(iii)* ஆக இருப்பதுடன் அதன் இலகுதன்மை 40% ஆகும்.