க.பொ.த. (சா.தர)ப் பரீட்சை - 2017

Marking Scheme

33 - வரலாறு

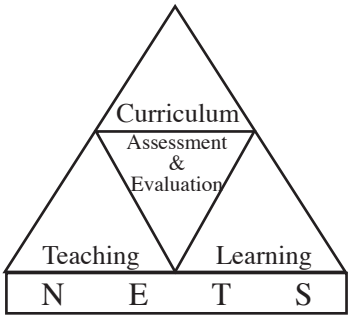

ஆய்வு அபிவிருத்திக் கிளை,
தேசிய மதிப்பீட்டிற்கும் பரீட்சித்தலுக்குமான சேவை,
இலங்கைப் பரீட்சைத் திணைக்களம்.

2.1.3 **வினாத்தாள் I இற்கான எதிர்பார்க்கப்பட்ட விடைகளும் புள்ளி வழங்கும் திட்டமும்**

வினா இல.	விடை	வினா இல.	விடை
01.	2	21.	1
02.	3	22.	3
03.	3	23.	4
04.	4	24.	4
05.	3	25.	3
06.	1	26.	2
07.	1	27.	1
08.	4	28.	2
09.	2	29.	1
10.	2	30.	2
11.	1	31.	3
12.	2	32.	3
13.	4	33.	4
14.	3	34.	1
15.	2	35.	2
16.	1	36.	4
17.	3	37.	1
18.	4	38.	3
19.	4	39.	1
20.	2	40.	1

அட்டவணை 05

ஒரு விடைக்கு 02 புள்ளிகள் வீதம் மொத்தமாக 80 புள்ளிகள்

வினாத்தாள் I இற்கான இறுதிப் புள்ளிகள் = $\frac{80}{2}$ = **40**

2.2 வினாத்தாள் II இற்கு விடையளிக்கப்பட்டமை தொடர்பான விபரங்கள்

2.2.1 வினாத்தாள் II - கட்டமைப்பு

வினாத்தாள் **II** - நேரம் 03 மணித்தியாலம். மொத்தப்புள்ளிகள் 120

இது I, II, III என மூன்று பகுதிகளைக் கொண்டது.

பகுதி **I**

முதலாம் வினா கட்டாய வினாவாகும். இது (அ), (ஆ) என இரு பகுதிகளைக் கொண்டது.

பகுதி (அ) - தேசப்படத்தில் குறித்துப் பெயரிடுதல். 18 புள்ளிகள்

பகுதி (ஆ) - வரலாற்று நிகழ்வுகளும் படங்களும் தொடர்பான மூன்று பகுதிகளைக் கொண்டது. புள்ளிகள் 12

$18 + 12 = 30$ புள்ளிகள்

பகுதி **II**

கட்டமைப்பு, பகுதிக் கட்டமைப்பு, கட்டுரை வகை வினாக்கள் 6 இனைக் கொண்டுள்ளது. இவற்றுள் 4 வினாக்களுக்கு விடையளித்தல் வேண்டும். இவ்வினாக்கள் தேர்ச்சி மட்டங்களுக்கு ஒதுக்கப்பட்டுள்ள பாட வேளைகளின் எண்ணிக்கைக்கு ஏற்றதாக பின்வரும் பாட அலகுகளிலிருந்து தயாரிக்கப்பட்டுள்ளன.

தரம் **10** - **1, 2, 3, 4, 5, 6, 7, 8, 10**

தரம் **11** - **2, 3, 4, 5, 6** $18 \times 4 = 72$ புள்ளிகள்

பகுதி **III**

கட்டமைப்பு, பகுதிக்கட்டமைப்பு கட்டுரை வகை வினாக்கள் 2 இனைக் கொண்டுள்ளது. இவற்றினுள் ஒன்றிற்கு விடையளித்தல் வேண்டும். இவ்வினாக்கள் தேர்ச்சி மட்டங்களுக்கு ஒதுக்கப்பட்டுள்ள பாட வேளைகளின் எண்ணிக்கைக்கு ஏற்ப பின்வரும் பாட அலகுகளிலிருந்து தயாரிக்கப்பட்டுள்ளன.

தரம் **10** - **9**

தரம் **11** - **1, 7, 8** $18 \times 1 = 18$ புள்ளிகள்

இறுதிப் புள்ளியைக் கணித்தல் : வினாத்தாள் I = 80

வினாத்தாள் II = 120

இறுதிப் புள்ளி = $200 \div 2 = 100$

.

2.2.2 வினாத்தாள் II - எதிர்பார்க்கப்பட்ட விடைகள், புள்ளி வழங்கும் திட்டம், விடையளித்தல் தொடர்பான அவதானிப்புகளும், முடிவுகளும், ஆலோசனைகளும் :

வினாத்தாள் II இற்கு விடையளித்தமை தொடர்பான அவதானிப்பு வரைபு 2, 3, 4.1, 4.2, 4.3 என்ற முறையில் முன்வைக்கப்பட்டுள்ளது. வினாவுக்குரிய வரைபு, உரிய வினாக்களின் அவதானிப்பு, முடிவுகள் என்பவற்றுடன் காட்டப்பட்டுள்ளது.

பகுதி I

வினா இலக்கம் 1

1. (அ) கீழே (i) இல் குறிப்பிடப்பட்டுள்ள வரலாற்று முக்கியத்துவம் வாய்ந்த இடங்கள் **அனைத்தையும்** தரப்பட்டுள்ள இலங்கைப் புறவுருவப்படத்திலும் (ii) இல் குறிப்பிடப்பட்டுள்ள வரலாற்று முக்கியத்துவம் வாய்ந்த இடங்கள் **அனைத்தையும்** தரப்பட்டுள்ள உலகப் புறவுருவப்படப் பகுதியிலும் குறித்துப் பெயரிடுக.

(i) கிரிந்தி ஓயா, இரணைமடுக் குளம், தேவநகரம், சல்வத்தொட்ட, கந்தரோடை (கந்துருகொட), சொரபொர வாவி, கன்னொருவை, ஸ்ரீ ஜயவர்த்தனபுரக் கோட்டை, கலா ஓயா, பெட்ரிக் கோட்டை, பொம்பரிப்பு, காலித் துறைமுகம் (12 புள்ளிகள்)

(ii) மும்பை (பம்பாய்), செங்கடல், உரோமாபுரி, மலாயா தீபகற்பம், யப்பான் தீவுகள், போர்த்துக்கல் (06 புள்ளிகள்)

(ஆ) (i) கீழே *A*, *B*, *C* மற்றும் *D* ஆகியவற்றில் தரப்பட்டுள்ள வரலாற்று முக்கியத்துவம் வாய்ந்த தகவல்களுக்குரிய விடைகளை ஒழுங்குமுறைப்படி உங்கள் விடைத்தாளில் எழுதுக.

A - ஐரோப்பியரின் வருகைக்கு முன்னர் இந்து சமுத்திரத்தின் வர்த்தகத்தில் ஆதிக்கம் செலுத்திய இனம்

B - போர்த்துக்கேயரை இந்நாட்டிலிருந்து விரட்டுவதற்கு கடற்படைப் பலமுள்ள வெளிநாட்டு இனத்தவரின் உதவியைப் பெற்றுக் கொண்ட மலைநாட்டு மன்னர்

C - கல்பொத்த கல்வெட்டைச் செதுக்கிய பொலன்னறுவை ஆட்சியாளர்

D - இரண்டாம் உலக மகா யுத்தத்தின் போது முதலாவது அணுகுண்டுத் தாக்குதலுக்குட்பட்ட நகரம் (04 புள்ளிகள்)

- *A* மற்றும் *B* இனால் கீழ் காட்டப்பட்டுள்ள படங்களை அவதானித்து, தரப்பட்ட வினாக்களுக்கான விடைகளை இலக்கங்களின் ஒழுங்குமுறையில் உங்கள் விடைத்தாளில் எழுதுக.

(ii) 1. '*A*' இனால் காட்டப்படும் நிர்மாணிப்பு எது?
2. இதன்மூலம் ஆற்றப்படும் பணி யாது?
3. இதனை எந்த நீர்ப்பாசனக் கட்டுமானத்தை அண்மியதாகக் காணலாம்?
4. இதனை நிர்மாணிப்பதற்குப் பயன்படுத்திய பொருட்களிலொன்றைக் குறிப்பிடுக.

(04 புள்ளிகள்)



A

(iii) 1. '*B*' எழுத்தினால் காட்டப்படுவது எது?
2. இது அமைந்துள்ள நகரம் எது?
3. இதனை யாரைத் தங்கவைப்பதற்காகப் பயன்படுத்தினர்?
4. இது உலகின் எந்தப் புரட்சியுடன் தொடர்புபட்டது?

(04 புள்ளிகள்)



B

எதிர்பார்க்கப்பட்ட விடைகளும் புள்ளிவழங்கும் திட்டமும்

வினா 1

(1) (அ) (i)

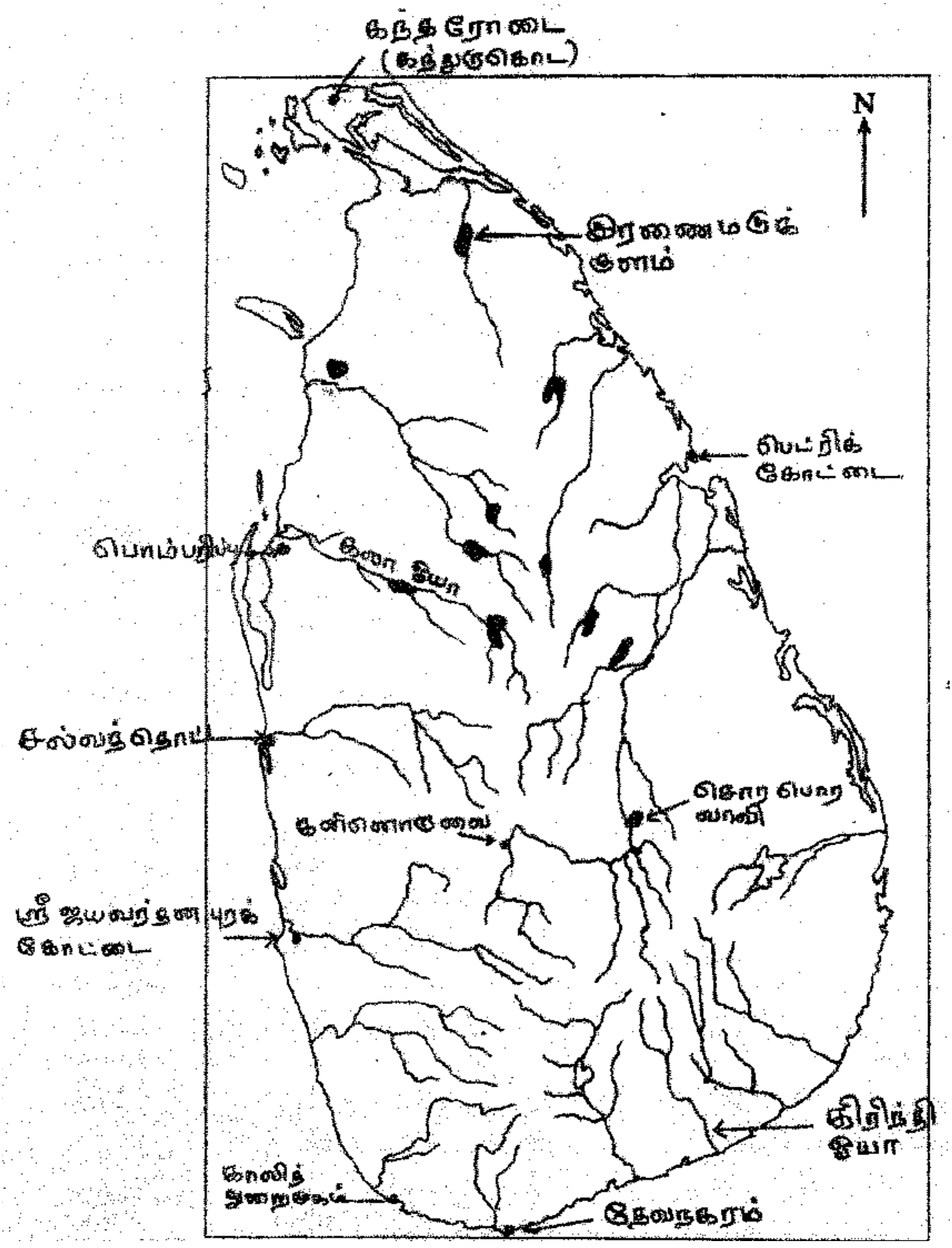

(10 புள்ளிகள்)

(1) (அ) (ii)

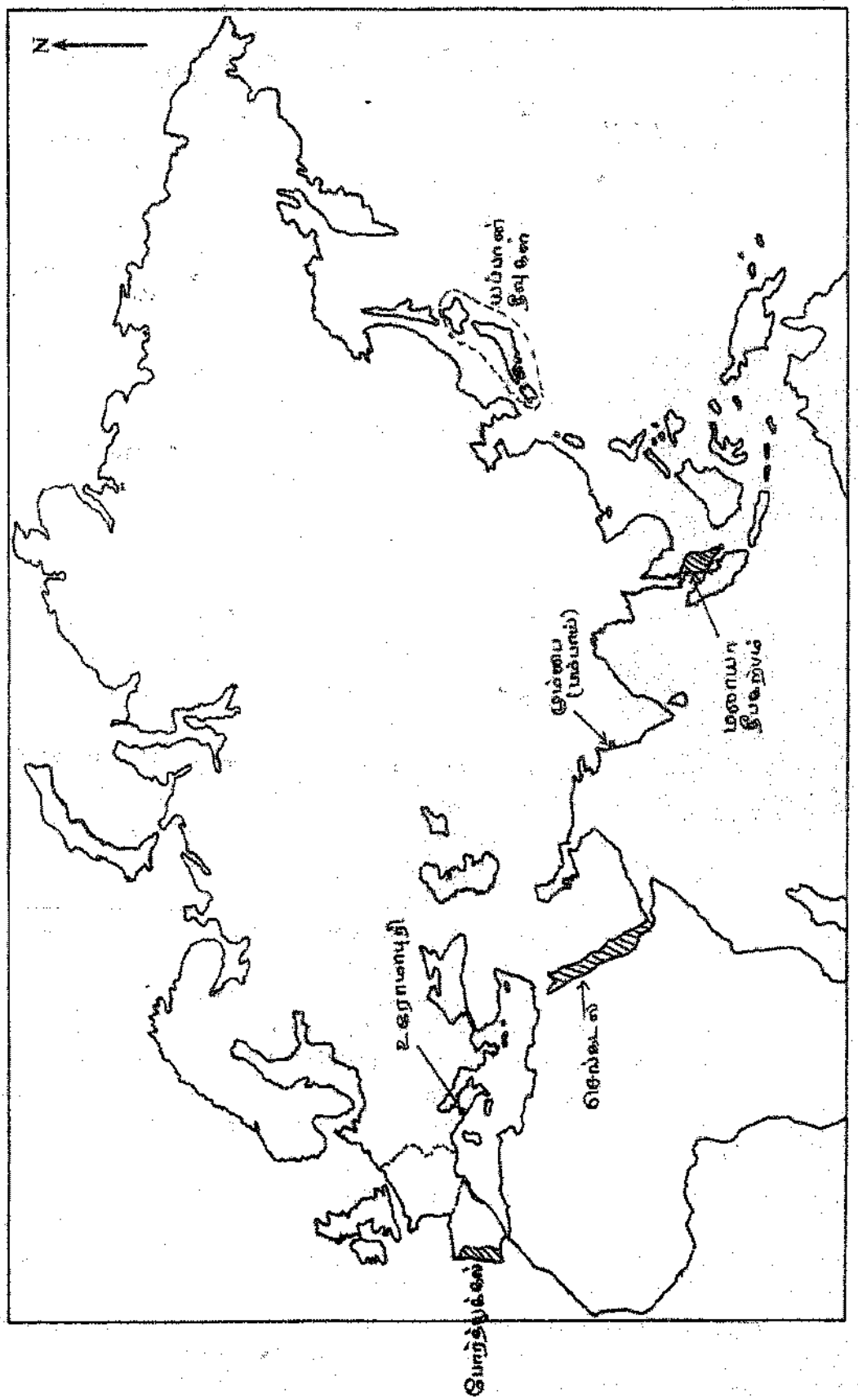

(8 புள்ளிகள்)

(ஆ) (i) A - முஸ்லிம்

B - இரண்டாம் இராஜசிங்கன்

C - கீர்த்தி ஸ்ரீ இராஜசிங்கன் / நிசங்கமல்லன்

D - ஹிரோஷிமா **(1 x 4 = 4 புள்ளிகள்)**

(ii) 1. - மடைக்கதவு / கலிங்கல்

2. - நீரை விடுவித்தல்

3. - குளம் / கலிங்கல் தொட்டி

4. - கருங்கல் / செங்கல் **(1 x 4 = 4 புள்ளிகள்)**

(iii) 1. - பஸ்ரீல்

2. - பரீஸ்

3. - சிறைக்கைதிகள்

4. - பிரான்சியப் புரட்சி **(1 x 4 = 4 புள்ளிகள்)**

1ஆம் வினாவுக்கு விடையளிக்கப்பட்ட விதம் பற்றிய அவதானிப்புகளும் முடிவுகளும் ஆலோசனைகளும்:

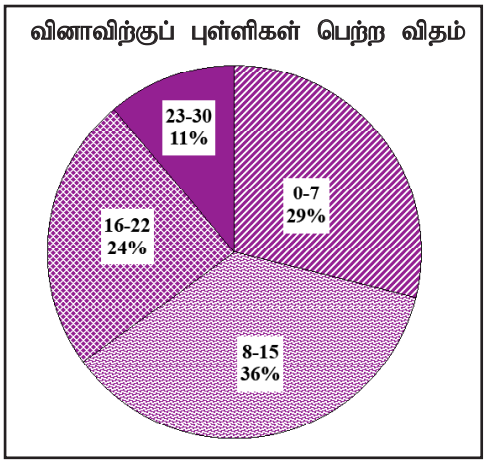

01 ஆம் வினா கட்டாயமானது. எனினும் இவ்வினாவிற்கு விடையளித்திருப்போர் 98.68% ஆகும். இந்த வினாவுக்கான புள்ளிகள் 30 ஆகும்.

00 - 07 ஆயிடையில் 29%
08 - 15 ஆயிடையில் 36%
16 - 22 ஆயிடையில் 24%
23 - 30 ஆயிடையில் 11%

புள்ளிகளைப் பெற்றுள்ளனர்.

இந்த வினாவுக்கு 23 புள்ளிகளையோ அதற்கு மேற்பட்ட புள்ளிகளையோ பெற்றவர்கள் 11% ஆவர். 07 புள்ளிகளையோ அதற்குக் குறைந்த புள்ளிகளையோ பெற்றுள்ளோர் 29% ஆவர்.

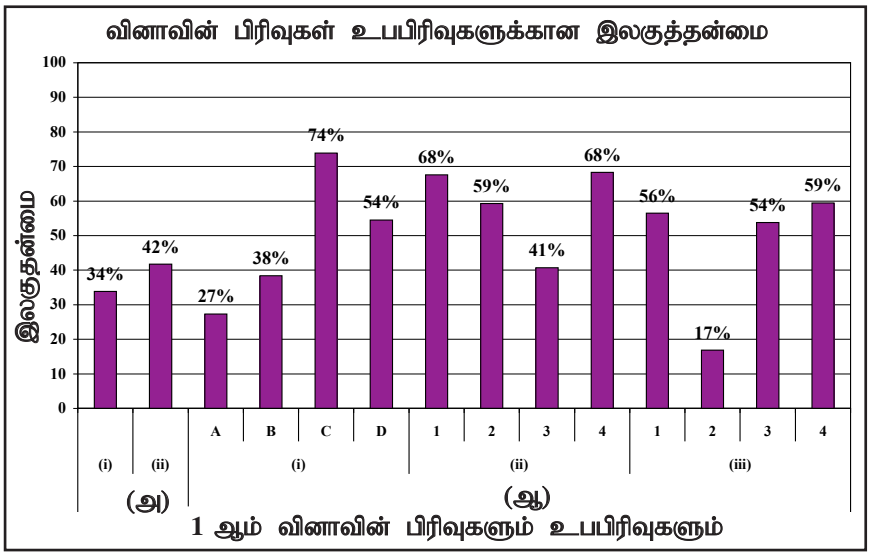

★ இவ்வினாவில் அதிக இலகுதன்மையை (அ) பகுதியின் (i) C காட்டுவதுடன் அது 74% ஆகும். குறைவான இலகுதன்மையை (ஆ) (iii) 2 பகுதி காட்டுவதுடன் அது 17% ஆகும்.

பகுதி II

வினா 2

தேர்ச்சி : இலங்கையின் வரலாற்றுக்கு முற்பட்ட கால, முன் வரலாற்றுக்கால குடியேற்றங்களின் பரம்பல், வாழ்க்கை முறை, தொழில்நுட்பம் போன்ற தகவல்களை எடுத்துக் கூறுவர்.

2. (i) இலங்கையின் தென்மாகாணத்திற்குரிய குறைவரல் வலயத்தில் வரலாற்றுக்கு முற்பட்ட கல்லாயுதங்கள் கிடைக்கப்பெற்றுள்ள இடங்கள் **மூன்றைப்** பெயரிடுக. (03 புள்ளிகள்)

(ii) வரலாற்றுக்கு முற்பட்ட கால மனிதனின் வாழ்க்கை முறையின் முக்கியமான பண்புகள் **இரண்டைக்** குறிப்பிடுக. (04 புள்ளிகள்)

(iii) (a) முன் வரலாற்றுக் காலம் எனக் கருதப்படுவது எந்தக் காலப்பகுதியாகும்?

(b) இலங்கையின் முன் வரலாற்றுக் காலத்திற்குரிய மயானங்கள் அமைந்துள்ள இடங்கள் **மூன்றைக்** குறிப்பிடுக. (05 புள்ளிகள்)

(iv) முன் வரலாற்றுக் காலத்தில் வாழ்ந்த மனிதன் தொழினுட்பத்தைப் பயன்படுத்திய விதத்தை **மூன்று** காரணிகளை முன்வைத்து விளக்குக. (06 புள்ளிகள்)

2. (i)
- மினிஹா கல்கந்தை
- பூந்தலை
- பதிராஜவெல
- அலுகல்கே
- உடமலல

(1 x 3 = 3 புள்ளிகள்)

(ii)
- மிருகங்களை வேட்டையாடுதல்.
- உணவுக்காக காட்டு காய்கனிகளை சேகரித்தல்.
- உணவு இயற்கைச் சூழலுக்கு அமைவாக தீர்மானமானவை.
- சிறு குழுக்களாக வாழுதல்.
- மழைகாலங்களில் குகைகளிலும் வரட்சிக் காலங்களில் திறந்த வெளிகளிலும் வாழுதல்.
- சடலங்களை கற்குகைகளில் புதைத்துள்ளனர் / குழியைத் தோண்டி சடலத்தை வைத்து சருகுகளால் மூடியுள்ளனர்.
- நாளாந்த நடவடிக்கைகளுக்காக பல்வகையான உபகரணங்கள் பயன்படுத்தப்பட்டமை.

(2 x 2 = 4 புள்ளிகள்)

(iii) (a)
- வரலாற்றுக்கு முற்பட்ட காலத்தின் இறுதிப்பகுதிக்கும் வரலாற்றுக் காலத்தின் ஆரம்பப் பகுதிக்கும் இடைப்பட்ட காலம்.
  (கி.மு 2400 - கி.மு 450க்கு இடைப்பட்ட காலம்)

(b)
- ரஞ்சாமடம
- கல்சொஹன் கனத்தை
- ஹல்துமுல்ல
- இப்பன்கடுவை
- யடிகல் பொத்தை
- பெரகல

(2 + 3 = 5 புள்ளிகள்)

(iv)
- மட்பாண்டங்களை உற்பத்தி செய்யும் தொழில்நுட்பம்.
- உலோக தொழில்நுட்பம்
- வீடுகளைக் கட்டுவதற்காக தொழில்நுட்பங்களை பயன்படுத்தல்.
- ஆபரணங்கள், அலங்காரப் பொருட்கள் பயன்படுத்தப்பட்டமை.
- கல்லறைகளை நிர்மாணிக்கும் போது தொழில் நுட்பங்களைப் பயன்படுத்தியமை.

(3 + 3 = 6 புள்ளிகள்)

இலங்கையில் வரலாற்றுக்கு முற்பட்ட கால மனிதர் பயன்படுத்திய ஆயுதங்கள் அவர்களின் வாழ்க்கைக் கோலத்தின் முனைப்பான பண்புகள், முன் வரலாற்றுக் காலத்தில் பயன்படுத்திய தொழினுட்பங்கள் மரணச் சடங்குகள் என்பன பற்றிய அறிவையும் விளக்கத்தையும் பரீட்சிப்பதற்காக இந்த வினா தயாரிக்கப்பட்டுள்ளதுடன் அதனைத் தெரிவு செய்த மாணவர்கள் 91.70% ஆகும்.

(i) பகுதியின் இலகுதன்மை 22% ஆகும். கூடிய இலகுதன்மையைப் பெறுவதற்கு இலங்கைப் படம் ஒன்றில் வரலாற்றுக்கு முற்பட்ட இடங்களைக் குறித்துப் பெயரிடுதல், அட்டவணை மூலம் இடங்களை வேறுபடுத்தி இனம்காணச் செய்தல் என்பவற்றால் மாணவர்களுக்கு வழிகாட்ட முடியும். *(ii)* ஆம் வினாவின் இலகுதன்மை 72% ஆகும். பாடநூலைப் பயன்படுத்துவதில் மாணவர்களை ஈடுபடுத்துவதுடன் குழுச் செயற்பாடு, சுவர்ப்பத்திரிகை ஆகியவை மூலம் தகவல்களைக் காட்சிப்படுத்துவதினூடாக இலகுதன்மையை மேலும் விருத்தி செய்ய முடியும்.

பகுதி *(iii)* இன் *(a), (b)* உபபிரிவுகளின் இலகுதன்மை முறையே 34%, 42% ஆகும். முன் வரலாற்றுக் காலத்துக்குரிய காலப்பகுதி அக்காலத்தில் மயானங்கள் அமைந்த இடங்கள் என்பவற்றை குழுச் செயற்பாடுகள், ஒப்படைகள் என்பவற்றைப் பயன்படுத்துவதன் மூலம் கூடிய இலகுதன்மையை மாணவர் அடைவதற்கு ஈடுபடுத்தலாம்.

பகுதி *(iv)* இற்கு விடை வழங்குவதற்கான இலகுதன்மை 49% ஆகும். முன்வரலாற்றுக் காலத்தில் வாழ்ந்த மனிதர் தொழினுட்பத்தைப் பயன்படுத்திய விதத்தினை களப்பயணம், உரிய உருக்கள் என்பவற்றைப் பயன்படுத்துதல் இலகுதன்மையை பெற்றுக்கொள்ள முடியும்.

வினா 3

தேர்ச்சி : அரசுக்கு முற்பட்ட கால அரச அதிகாரிகள் அழைக்கப்பட்ட விதம், புரதான இலங்கை நிர்வகிக்கப்பட்ட முறை, பொருளாதாரம், அரசாட்சிக்குப் பின் ஆட்சி செய்த முக்கிய அரசர்கள் தொடர்பான விடயங்களை முன்வைப்பர்.

3. (i) இலங்கையின் அதிகாரம் மையப்படுத்தப்பட்ட நிருவாகத்திற்குரித்தான பின்வரும் பணிகளையும் அப்பணிகளுடன் தொடர்புடைய நபர்களின் உத்தியோகபூர்வப் பெயர்களையும் அடைப்புக்குறிக்குள்ளிருந்து தெரிவுசெய்து ஒழுங்குமுறைப்படி எழுதுக.

A - காசு அச்சிடும் பிரிவின் தலைவர்
B - குதிரைப் பிரிவின் தலைவர்
C - வர்த்தக நடவடிக்கைகளுக்கான தலைவர்

(ரூப அதெக, பன அதெக, நகர வுடிக, நட்ட அதெக, அச அதெக) (03 புள்ளிகள்)

(ii) பின்வரும் விடயங்கள் ஒவ்வொன்றுடனும் தொடர்புடைய ஆட்சியாளர்கள் யார் என்பதை ஒழுங்குமுறைப்படி எழுதுக.

A - தனது மாமன்மாரை வென்று அரச பதவியைக் கைப்பற்றுதல்
B - இலங்கையின் வரலாற்றில் முதற்றடவையாக ஒழுங்கமைக்கப்பட்ட யுத்தத்தில் வெற்றிபெற்று ஐக்கிய இலங்கையை உருவாக்குதல்
C - அதிகளவு குளங்களை நிர்மாணித்தலில் முன்னிலை வகித்தல்
D - பாண்டிய வம்சத்தின் உதவியுடன் பொலன்னறுவையில் மூன்று முறை அதிகாரத்திற்கு வந்த அரசியாதல் (04 புள்ளிகள்)

(iii) புராதன இலங்கையில் கிராமங்கள் நிருவகிக்கப்பட்ட விதத்தை அவற்றின் தலைமைத்துவம் மற்றும் பணிகளை அடிப்படையாகக் கொண்டு விளக்குக. (05 புள்ளிகள்)

(iv) புராதன இலங்கையின் பொருளாதாரத்தில் தேசிய மற்றும் வெளிநாட்டு வர்த்தகம் முக்கிய இடத்தைப் பெற்றிருந்தமை பற்றி **மூன்று** காரணிகளை முன்வைத்து விளக்குக. (06 புள்ளிகள்)

3. **(i)** *A* - ரூப அதெக

B - அச அதெக

C - பன அதெக **(1 x 3 = 3 புள்ளிகள்)**

(ii) *A* - பண்டுகாபய மன்னன்

B - துட்டகைமுனு மன்னன்

C - வசப மன்னன் / மகாசேன மன்னன்

D - லீலாவதி அரசி **(1 x 4 = 4 புள்ளிகள்)**

(iii) • தலைமைத்துவம்

- கிராமத்தின் தலைவர் கமிக எனும் பெயரால் அறிமுகமாயினர்.
- குருகபதிகளில் இருந்து கமிக தெரிவு செய்யப்பட்டமை.
- கிராமத்தில் வாழ்ந்த செல்வமும் பலமும் படைத்த ஒருவர் கமிகவாக தெரிவு செய்யப்பட்டமை.

• பணிகள்

- கிராமப் பொது நிகழ்வுகளுக்கு தலைமை தாங்குதல்
- குளத்தை நிர்வகித்தல்.
- நீரை விநியோகித்தல்.
- கிராமத்தவர்களிடையே ஏற்படும் பிரச்சினைகளைத் தீர்த்தல்.
- கிராமங்களிடையே இணக்கப்பாட்டையும் நட்புறவையும் ஏற்படுத்துதல்.

(2 + 2 + 1 = 5 புள்ளிகள்)

(iv) • தேசிய வர்த்தகம்

- முறைப்படுத்தப்பட்ட உள்நாட்டு வியாபாரம்
- உள்நாட்டு சந்தைகள் காணப்பட்டமை
- வர்த்தக சட்டங்கள் காணப்பட்டமை.
- வணிக பொருட்கள்
- வரி அறவிடப்பட்டமை

• வெளிநாட்டு வர்த்தகம்

- வெளிநாட்டு வணிக நிறுவனங்கள்
- வணிக தொடர்புகளை வைத்திருந்த நாடுகள்
- வணிக துறைமுகங்கள்
- பரிமாற்றம் செய்யப்பட்ட பொருட்கள்
- தீர்வை வரிகள் அறவிடப்பட்டமை.

(3 + 3 = 6 புள்ளிகள்)

வினா 4

தேர்ச்சி : இலங்கையின் புராதன விஞ்ஞான பிரயோகத்தின் நீர் முகாமைத்துவம் இரும்பைப் பிரித்தெடுக்கும் தொழில்நுட்பம் போன்ற துறைகளில் காணப்பட்ட வளர்ச்சி பற்றி எடுத்துக் கூறுவர்.

4. (i) அனுராதபுர காலத்தில் நிர்மாணிக்கப்பட்ட பெரிய குளங்கள் **மூன்றைப்** பெயரிடுக. (03 புள்ளிகள்)

(ii) பின்வரும் A, B, C மற்றும் D எழுத்துக்களின் மூலம் தரப்பட்டுள்ள பண்டைய தொழினுட்பம் மற்றும் அதனுடன் தொடர்பான நிர்மாணிப்புகள் யாவை என்பதை அடைப்புக்குறிக்குள்ளிருந்து தெரிவுசெய்து ஒழுங்குமுறைப்படி எழுதுக.

A - வரலாற்றுக்கு முற்பட்ட கால மனிதன் தமது வேலைகளைச் செய்வதற்குப் பயன்படுத்திய தொழினுட்பக் கருவிகள் அழைக்கப்படும் பெயர்

B - மண்பானைகளைத் தயாரிப்பதற்காகப் பயன்படுத்தப்பட்ட தொழினுட்ப உபகரணம்

C - நீர் அமுக்கத்தைச் சமநிலைப்படுத்தி வாய்க்காலுக்கு நீரை விடுவிக்கப் பயன்படுத்திய தொழினுட்ப நிர்மாணிப்பு

D - நீர்நிலையியல் கோட்பாட்டைப் பயன்படுத்தி மேற்கொள்ளப்பட்ட நிர்மாணிப்பு

(அலைதாங்கி, மடைக் கதவு, வில்லும் அம்பும், வனைதற் சில்லு, கல்லாயுதங்கள், தெடிகம யானை விளக்கு, வான்கதவு, கற்பீலிகள்) (04 புள்ளிகள்)

(iii) பண்டைய ஆட்சியாளர்கள் பாரியளவு குளங்களைக் கட்டும்போது எதிர்பார்த்த நோக்கங்கள் **இரண்டைச்** சுருக்கமாக விளக்குக. (05 புள்ளிகள்)

(iv) (a) பண்டைய இலங்கையில் வளர்ச்சியடைந்த இரும்பு பிரித்தெடுக்கும் தொழினுட்பம் காணப்பட்டதாக தொல்பொருளியல் சான்றுகள் கிடைக்கப்பெற்றுள்ள **இரண்டு** இடங்களைக் குறிப்பிடுக.

(b) அவ்விடத்தில் இரும்பு பிரித்தெடுக்கப்பட்ட விதத்தைச் சுருக்கமாகக் குறிப்பிடுக. (06 புள்ளிகள்)

4. (i)
- மின்னேரியாக் குளம்
- கவுடுளு வாவி
- பதவிய குளம்
- ஹுறுளு வாவி
- கலா வாவி
- நாச்சதுவ குளம்
- மகாகணதர வாவி
- மகாவிலச்சிய குளம்
- கிரிதலை குளம்
- கந்தளாய் குளம்

(1 x 3 = 3 புள்ளிகள்)

(ii) A - கல்லாயுதங்கள் B - வனைதற் சில்லு

C - மடைக்கதவு (கலிங்கல் தொட்டி) D - தெடிகம யானை விளக்கு

(1 x 4 = 4 புள்ளிகள்)

(iii)
- விவசாய நடவடிக்கைகளை வெற்றிகரமாக மேற்கொள்ளல்.
- வெள்ளப்பெருக்கை கட்டுப்படுத்தல்.
- நகர மக்களின் நீர்த்தேவையை நிறைவு செய்தல்.

(2 + 3 = 5 புள்ளிகள்)

(iv) (a)
- பலாங்கொடை சமனலவெவ பிரதேசம்
- சீகிரிய - அலகொலவெவ, தெஹிகஹ அலகந்தை பிரதேசம்.

(b)
- இரும்புத்தாது படிந்த கற்களை துண்டுகளாக்கி அதனைக் களிமண்ணாலான அடுப்புகளில் இட்டு அதன் மேல் கரியிட்டு மாலை நேரத்தில் தீ மூட்டப்படும். அடுத்த நாள் அதிகாலை வரை வீசும் காற்று மூலம் அவ்வடுப்பு எரிந்து இரும்பைப் பிரித்தெடுக்கும். எரிப்பதற்கு மரங் கரியே பயன்படுத்தப்பட்டுள்ளது.
- இரும்புத் துளை எரிவதற்கான வளி ஊதுளை மூலம் பெற்றுக் கொள்ளப்பட்டது. (தெஹிகஹ அலகந்த)

(2 + 4 = 6 புள்ளிகள்)

வினா 5

தேர்ச்சி : முதலாம் இரண்டாம் நகரமயமாக்கல் காலத்தின் முக்கிய நிர்வாக நகரங்களையும் பொருளாதார கட்டமைப்பில் ஏற்பட்ட மாற்றங்களையும், இரண்டாம் பராக்கிரமபாகு மன்னனின் ஆட்சியின் முக்கியத்துவத்தையும் எடுத்துரைப்பர்.

5. (i) இலங்கையின் முதலாவது நகரமயமாக்கல் கட்டத்திற்குரிய பண்டைய நிருவாக நகரங்கள் **மூன்றைப்** பெயரிடுக. (03 புள்ளிகள்)

(ii) முதலாவது நகரமயமாக்கல் கட்டத்திற்குரிய பண்டைய நகர நிருவாகத்தில் செல்வாக்குச் செலுத்திய காரணிகள் **நான்கைக்** குறிப்பிடுக. (04 புள்ளிகள்)

(iii) தம்பதெனியா இராசதானியை ஆட்சி செய்த இரண்டாம் பராக்கிரமபாகு மன்னனின் ஆட்சிக் காலத்தின் முக்கியத்துவத்தை **இரண்டு** காரணிகளை அடிப்படையாகக் கொண்டு விளக்குக. (05 புள்ளிகள்)

(iv) இரண்டாவது நகரமயமாக்கல் கட்டத்தின்போது இலங்கையின் பொருளாதாரக் கட்டமைப்பிலேற்பட்ட மாற்றங்கள் **மூன்றை** உதாரணங்களுடன் விளக்குக. (06 புள்ளிகள்)

5. (i)
- அநுராதபுரம்
- பொலன்னறுவை
- மாகம
- சீகிரிய

(1 × 3 = 3 புள்ளிகள்)

(ii)
- வணிக நடவடிக்கைகள் பரந்துபட்டதாக மாறுதல்.
- நகரத்தின் சனத்தொகை அதிகரித்தல்.
- மத்திய நிருவாகத்தை சக்தி வாய்ந்ததாக கொண்டு வரவேண்டியிருந்தமை.
- அரசர்களின் தேவைப்பாடுகள் (பண்டுகாபயன் / வசபன்)

(2 × 2 = 4 புள்ளிகள்)

(iii)
- மாகனின் ஆக்கிரமிப்பிலிருந்து இலங்கையை விடுவித்தல்.
- சந்திரபானுவை தோற்கடித்தல்.
- தம்பதெனிய கதிகாவத எழுதிவிக்கப்படல்.
- தந்ததாதுவை தம்பதெனியாவுக்கு கொண்டு வரல்.
- விகாரைகள் புனருத்தாரணம்.
- பௌத்த நூல்களை எழுத ஆதரவு வழங்குதல்.
- அரசனே நூல்கள் எழுதியதன் மூலம் இலக்கியத்திற்கு ஆதரவு வழங்குதல்.

(2 + 3 = 5 புள்ளிகள்)

(iv)
- பிரதான ஜீவனோபாயம் விவசாயமாக காணப்படுதல்.
- விவசாயத்துக்காக மழைநீரைப் பயன்படுத்தல்.
- பிரதான பயிர்செய்கை நெல் - நீர் பற்றாக்குறையான பிரதேசங்களில் சேனைப்பயிர்ச் செய்கை.
- வர்த்தக நடவடிக்கையில் கூடிய கவனம் செலுத்தியமை.
- உள்நாடு, வெளிநாட்டு வியாபாரம்,
- ஏற்றுமதிப் பயிர்களும், பொருட்களும்
- வெளிநாட்டு வியாபாரத்தில் ஈடுபட்ட நாடுகள்

(3 + 3 = 6 புள்ளிகள்)

வினா 6

தேர்ச்சி : கண்டி இராச்சியத்தின் முக்கிய அரசியல், நிர்வாகம், சமூக அமைப்புப் பற்றி விளங்கிக் கூறுவர்.

6. (i) மலைநாட்டு இராசதானியின் தலைநகரமாக விளங்கிய கண்டியின் பாதுகாப்புடன் தொடர்புடைய முக்கியமான

(a) ஆறு

(b) கணவாய்கள் **இரண்டு**

என்பவற்றை ஒழுங்குமுறையில் எழுதுக. (03 புள்ளிகள்)

(ii) பின்வரும் தகவல்களுடன் தொடர்புடைய நபர்கள் யாவர் என்பதை ஒழுங்குமுறைப்படி குறிப்பிடுக.

A - சீதாவாக்கை இராஜசிங்க மன்னன் கண்டி இராச்சியத்தை ஆக்கிரமித்த போது அங்கிருந்த ஆட்சியாளன்

B - புதிய அரச வம்சத்தை தொடங்கிய கண்டி இராச்சிய ஆட்சியாளன்

C - கி.பி.1602 இல் கண்டிக்கு வருகை தந்த ஒல்லாந்து தூதுக்குழுவின் தலைவர்

D - கி.பி.1766 இல் ஒல்லாந்தருடன் ஒப்பந்தமொன்றைச் செய்து கொண்ட கண்டி இராச்சிய ஆட்சியாளன்

(04 புள்ளிகள்)

(iii) கண்டி இராசதானியின் பிராந்திய நிருவாகம் ஒழுங்கமைந்திருந்த விதத்தை **இரண்டு** காரணிகளை அடிப்படையாகக் கொண்டு விளக்குக. (05 புள்ளிகள்)

(iv) கண்டி இராசதானியின் சமூக அமைப்பில் பிரதானமாகப் புலப்படும் பண்புகளை **மூன்று** உதாரணங்களைக் குறிப்பிட்டு விவரிக்குக. (06 புள்ளிகள்)

6. **(i)** **(a)**
- மகாவலி கங்கை

(b)
- பலனை
- உன்னஸ்கிரிய
- (கலகெதர, பலகடுவை, கினிகத்ஹேன) **(1 x 3 = 3 புள்ளிகள்)**

(ii) *A* - கரலியத்தே பண்டாரன்

B - முதலாம் விமலதர்மசூரியன்

C - ஜோரிஸ் பன் ஸ்பில்பேர்ஜன் / ஸ்பில் பேர்ஜன்

D - கீர்த்தி ஸ்ரீ இராஜசிங்கன் **(1 x 4 = 4 புள்ளிகள்)**

(iii)
- பிரதேச பரிபாலனத்துக்கு பொறுப்பான துறை, ரடவசம் என அறிமுகமானமை.
- மலையக இராஜதானி - ரட்ட, திசாவை என இரண்டு துறைகளாக வகுக்கப்பட்டிருந்தமை.
- திசாவைகளும் பகுதிகளாக வகுக்கப்பட்டிருந்தமை.
- பரிபாலன துறைகளுக்கு பொறுப்பான அதிகாரிகளும் உதவி அதிகாரிகளும் காணப்பட்டமை.
- அவரவர் உத்தியோகத்துக்கு அமைவாக நீதி அதிகாரம் இருந்தது.

(2 + 3 = 5 புள்ளிகள்)

(iv)
- சமூகம் குலத்தை அடிப்படையாகக் கொண்டிருந்தது.
- மூன்று வகைத் திருமணங்கள் இடம் பெற்றன.
- கிராமங்கள் சுயதேவைப் பூர்த்தி அடைந்திருந்தன.
- நற்பண்புகளைக் கைக்கொள்ளல் சமூகத்தின் பிரதான இலட்சணமாயிருந்தது.
- உரிமையையும் அனுபவித்தலையும் அடிப்படையாகக் கொண்டு பல்வேறு வகைப்படுத்தப்பட்டிருந்தது.

(3 + 3 = 6 புள்ளிகள்)

வினா 7

தேர்ச்சி : **கோல்புறூக் அரசியலமைப்பு மறுசீரமைப்பு மூலம் மேற்கொள்ளப்பட்ட மாற்றங்களை அடிப்படையாகக் கொண்டு இலங்கையில் ஏற்பட்ட அரசியலமைப்பு மற்றும் பிரித்தானியர் காலத்தில் இலங்கையில் ஏற்பட்ட அரசியல் சமூக மாற்றங்களோடு சுதந்திரத்தின் பின் ஏற்பட்ட பொருளாதார வளர்ச்சி தொடர்பாகவும் கருத்துக்களை முன்வைப்பர்.**

7. (i) பின்வரும் அரசியல் மாற்றங்கள் ஒவ்வொன்றும் எந்த அரசியலமைப்புச் சீர்த்திருத்தங்களின் கீழ் இடம்பெற்றதென்பதை அடைப்புக்குறிக்குள்ளிருந்து தெரிந்தெடுத்து *A*, *B* மற்றும் *C* ஒழுங்குமுறையில் குறிப்பிடுக.

A - சட்டத்துறைக்கு முதன்முதலில் வரையறுக்கப்பட்ட வாக்குரிமையடிப்படையில் பிரதிநிதிகளைத் தெரிவு செய்தல்

B - உறுப்பினர்கள் 61 பேரைக் கொண்ட அரசுக் கழகத்தை தாபித்தல்

C - உறுப்பினர்கள் 30 பேரடங்கிய சென்ட்சபை(மூதவை) தாபிக்கப்படல்

(கி.பி. 1833-கோல்புறூக், கி.பி. 1910-குறுமக்கலம், கி.பி. 1931-டொனமூர், கி.பி. 1947-சோல்பரி) (03 புள்ளிகள்)

(ii) 1833 கோல்புறூக் சீர்த்திருத்தங்களின் மூலம் ஏற்பட்ட நிருவாக மாற்றங்கள் **இரண்டையும்**,. பொருளாதார மாற்றங்கள் **இரண்டையும்** குறிப்பிடுக. (04 புள்ளிகள்)

(iii) பிரித்தானியராட்சியினால் இந்நாட்டிலேற்பட்ட சமூக மாற்றங்கள் **இரண்டைச்** சுருக்கமாக விவரிக்குக. (05 புள்ளிகள்)

(iv) சுதந்திரத்தின் பின்னரான இலங்கையில் ஆரம்பிக்கப்பட்ட பல்நோக்கு அபிவிருத்தித் திட்டங்கள் **இரண்டைக்** குறிப்பிட்டு, அவை இந்நாட்டின் பொருளாதார அபிவிருத்திக்குப் பங்களிப்புச் செய்த விதத்தை **இரண்டு** காரணிகளை முன்வைத்து விளக்குக. (06 புள்ளிகள்)

7. **(i)** *A* - கி.பி 1910 குறு மக்கலம்

B - கி.பி 1931 டொனமூர்

C - கி.பி 1947 சோல்பரி

(1 x 3 = 3 புள்ளிகள்)

(ii) ● **நிர்வாக மாற்றங்கள்**

- சட்டவாக்க கழகம், சட்ட நிருவாகக் கழகங்கள் அமைக்கப்பட்டமை
- மலைநாடும் கரையோரப் பிரதேசங்களும் ஒன்றிணைக்கப்பட்டமை
- நாடு ஐந்து மாகாணங்களாக பிரிக்கப்பட்டமை
- கிராம சபை முறை நீக்கப்பட்டமை

● **பொருளாதார மாற்றங்கள்**

- கட்டாய அரசகரும முறை ஒழிக்கப்பட்டமை.
- அரசின் வர்த்தக ஏகபோக முறை அகற்றப்பட்டமை.
- பெருந்தோட்ட பயிர்செய்கை அறிமுகப்படுத்தப்பட்டமை.
- நாட்டில் சேமிப்பு வங்கி முறை ஆரம்பிக்கப்பட்டமை. **(2 + 2 = 4 புள்ளிகள்)**

(iii) ★ புதிய மத்திய தரவர்க்கத்தினர் தோற்றம் பெற்றமை.

★ தொழிலாளர் வகுப்பினர் தோற்றம் பெற்றமை.

- தோட்டத் தொழிலாளர்
- நகரத் தொழிலாளர்

★ மேலைத்தேய கலாசாரம் நாடு முழுவது.ம் பரவியமை.

★ ஆங்கில மொழியும் ஆங்கிலக் கல்வியும் கிடைக்கப் பெற்றமை. **(2 + 3 = 5 புள்ளிகள்)**

(iii) - கல்லோயா

- மகாவலி

★ பொருளாதார அபிவிருத்திக்கு பங்காற்றிய விதம்

- விவசாயத்திற்கு பங்களிப்புச் செய்தல்.
- மின்னுற்பத்தியை மேற்கொள்ளல்.
- புதிய குடியேற்றத்திட்டங்களை உருவாக்குதல்.
- விவசாயப் பயிர்செய்கையை பரவலடையச் செய்தல்.
- வெள்ளப்பெருக்கை கட்டுப்படுத்தல்.
- நன்னீர் மீன் வளர்ப்பினை விருத்தியடையச் செய்தல்.
- புதிய தொழில் வாய்ப்புக்களை உருவாக்குதல்.
- கைத்தொழிலை விருத்தி செய்தல்.
- உட்கட்டமைப்பு வசதிகளை விருத்தி செய்தல். **(2 +2 + 2 = 6 புள்ளிகள்)**

7ஆம் வினாவுக்கு விடையளிக்கப்பட்ட விதம் பற்றிய அவதானிப்புகளும் முடிவுகளும் ஆலோசனைகளும்:

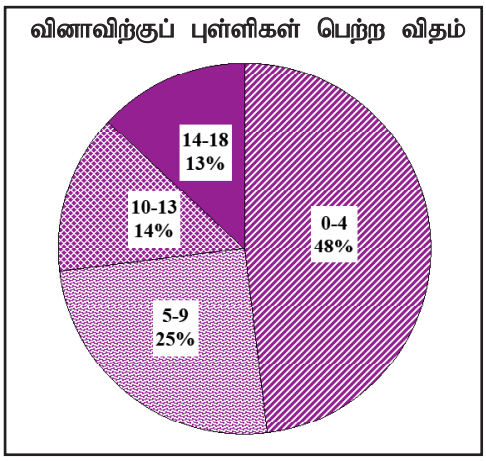

07 ஆம் வினாவைத் தெரிவுசெய்தோர் 50.64% ஆவர். இந்த வினாவுக்கான புள்ளிகள் 18 ஆகும்.

00 - 04 ஆயிடையில் 48%
05 - 09 ஆயிடையில் 25%
10 - 13 ஆயிடையில் 14%
14 - 18 ஆயிடையில் 13%

புள்ளிகளைப் பெற்றுள்ளனர்.

இவ்வினாவுக்கு 14 அல்லது அதை விட அதிகமான புள்ளிகளைப் பெற்றவர்கள் 13% ஆகும். 48% ஆனோர் 04 அல்லது அதற்குக் குறைந்த புள்ளிகளைப் பெற்றுள்ளனர்.

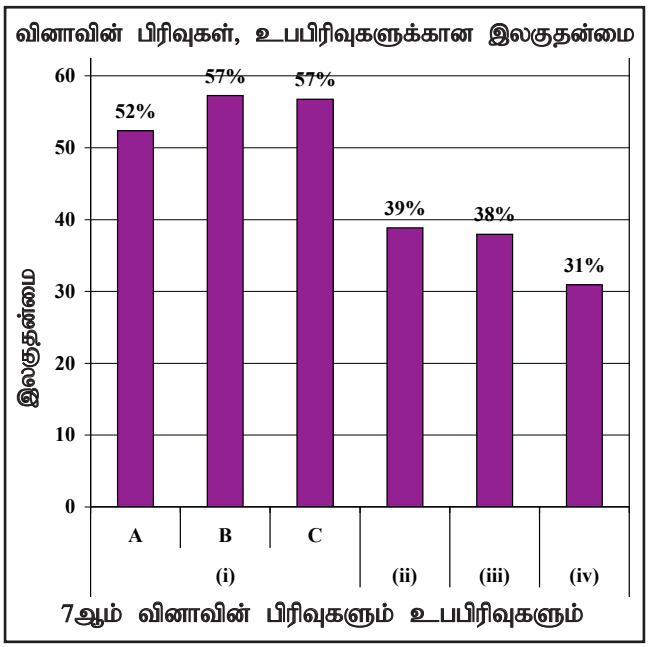

★ இவ்வினாவுக்குரிய பிரிவுகள், உபபிரிவுகளில் கூடிய இலகுதன்மையை (i) *B* உம் *C* உம் ஆகும். அதன் இலகுதன்மை 57% ஆகும். குறைந்த இலகுதன்மை கொண்ட பிரிவு (iv) ஆவதோடு அதன் இலகுதன்மை 31% ஆகும்.

பகுதி III

வினா 8

தேர்ச்சி : கைத்தொழில் புரட்சி ஏற்பட்ட முக்கிய துறைகளையும் போக்குவரத்து தொடர்பாடல் போன்ற துறைகளில் ஏற்பட்ட மாற்றங்களையும் உலகத்தில் ஏற்பட்ட சமூக மாற்றங்களையும் இலங்கையில் செல்வாக்கு செலுத்திய விதத்தையும் எடுத்துரைப்பர்.

8. (i) பிரித்தானியாவில் கைத்தொழிற்புரட்சியானது மூன்று பிரதான கைத்தொழில்களை அடிப்படையாகக் கொண்டு ஆரம்பித்தது. அக் கைத்தொழில்களைப் பெயரிடுக. (03 புள்ளிகள்)

(ii) கைத்தொழிற் புரட்சியின் போது (*A*) தொடர்பாடல் மற்றும் (*B*) போக்குவரத்து துறைகளிலேற்பட்ட புதிய உற்பத்திகள் **இரண்டு** வீதம் ஒழுங்குமுறைப்படி குறிப்பிடுக. (04 புள்ளிகள்)

(iii) கைத்தொழிற் புரட்சியின் விளைவாக உலக சமூகத்திலேற்பட்ட மாற்றங்கள் **இரண்டை** விவரிக்குக. (05 புள்ளிகள்)

(iv) கைத்தொழிற் புரட்சி இலங்கை மீது செல்வாக்குச் செலுத்திய விதத்தை **மூன்று** உதாரணங்களைக் குறிப்பிட்டு விளக்குக. (06 புள்ளிகள்)

8. (i)
- நெசவு (புடைவை)
- நிலக்கரி
- இரும்புருக்கு

(1 x 3 = 3 புள்ளிகள்)

(ii) A - தொடர்பாடல்
- தந்திமுறை
- தொலைபேசி
- வானொலி
- தொலைக்காட்சி

B - போக்குவரத்து
- மெக்கடம் முறை
- புகையிரத என்ஜின்
- புகைப்படகு
- புகைக்கப்பல்
- மோட்டார் வண்டி
- ஆகாய விமானம்.

(2 + 2 = 4 புள்ளிகள்)

(iii)
- நகரங்கள் உருவாகியமை.
- புதிய வேலைவாய்ப்புக்கான சந்தர்ப்பங்கள் உருவானமை.
- தொழிலாளர் வர்க்கம் உருவானமை.
- கைத்தொழில் நகரங்கள் உருவானதுடன் சேரிப்புறம் உருவானமை.
- உழைப்பு சுரண்டப்பட்டமை
- பெண்கள், சிறுவர்கள் வேலைக்கமர்த்தப்பட்டமை.
- சூழல் மாசடைதல்.
- சமூக அடிப்படை சுகாதார நலன்புரி நடவடிக்கைகளில் அரசாங்கம் கவனம் செலுத்தியமை.

(2 + 3 = 5 புள்ளிகள்)

(iv)

- பாரிய நிலப்பரப்பில் பெருந்தோட்ட பயிர்செய்கை மேற்கொள்ளப்பட்டமை.
- வர்த்தக பயிர்செய்கை மேற்கொள்ளப்பட்ட இடங்களுக்கு அண்மையில் கைத்தொழில்சாலைகளை உருவாக்கியமை.
- இயந்திர சாதனங்கள் பயன்படுத்தப்பட்டமை (தொழிற்சாலைகளில்)
- பெருந்தெருக்கள் அமைத்தல். (மக்கடம் முறை)
- உட்கட்டமைப்பு வசதிகள் விரிவாக்கப்பட்டமை. (பெருந்தெருக்கள், புகையிரதம், தொடர்பாடல், துறைமுகம்)
- மரபுரீதியான பொருளாதார முறை மாற்றம் பெற்று முதலாளித்துவ பொருளாதாரம் உருவானமை.

(3 + 3 = 6 புள்ளிகள்)

8ஆம் வினாவுக்கு விடையளிக்கப்பட்ட விதம் பற்றிய அவதானிப்புகளும் முடிவுகளும் ஆலோசனைகளும்:

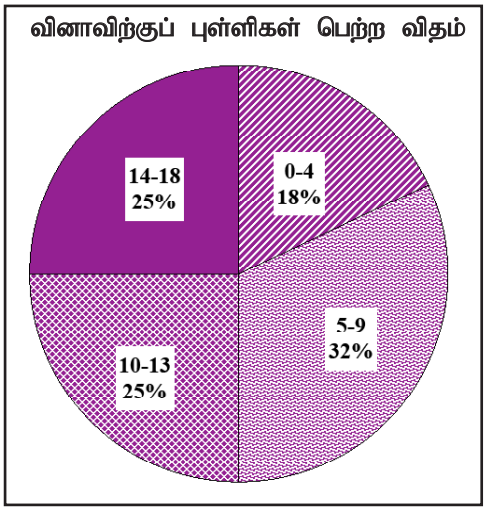

08 ஆம் வினாவை 71.49% ஆனோர் தெரிவுசெய்துள்ளனர். இந்த வினாவுக்கான புள்ளிகள் 18 ஆகும்.

00 - 04 ஆயிடையில் 18%
05 - 09 ஆயிடையில் 32%
10 - 13 ஆயிடையில் 25%
14 - 18 ஆயிடையில் 25%

புள்ளிகளைப் பெற்றுள்ளனர்.

இந்த வினாவுக்கு 14 அல்லது அதற்கு மேற்பட்ட புள்ளிகளைப் பெற்றோர் 25% ஆவர். 18% ஆனோர் 04 புள்ளிகளை அல்லது அதற்குக் குறைந்த புள்ளிகளைப் பெற்றுள்ளனர்.

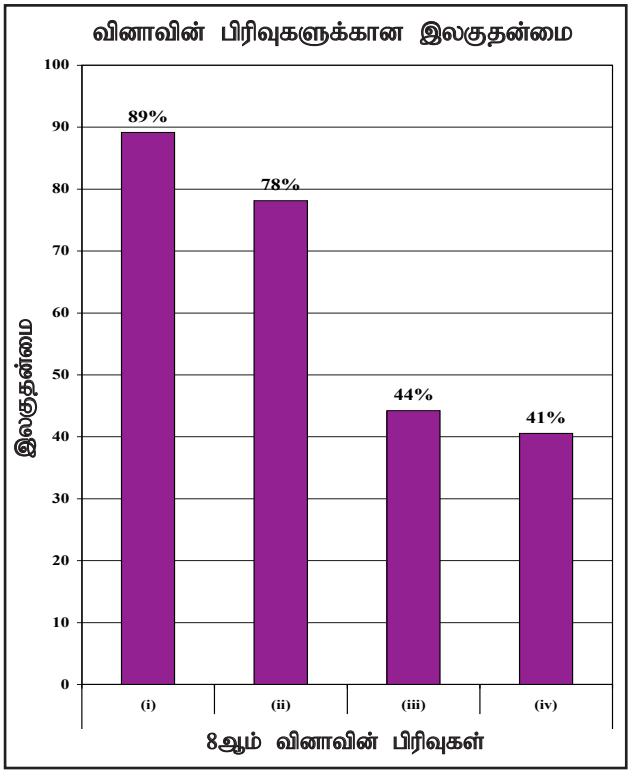

★ இவ்வினாவுக்குரிய 4 பிரிவுகளில் கூடிய இலகுதன்மையை பிரிவு (i) பெற்றுள்ளது. அது 89% ஆகும். குறைந்த இலகுதன்மையை பிரிவு (iv) பெற்றுள்ளது. அது 41% ஆகும்.

வினா 9

தேர்ச்சி : **முதலாம் இரண்டாம் உலக மகா யுத்தங்களில் ஈடுபட்ட நாடுகளையும் காரணங்களையும் பேரழிவுகளையும் எடுத்துக் கூறுவர்.**

9. (i) முதலாம் உலக மகா யுத்தத்தின் போது காணப்பட்ட நேச(நட்பு) அணிக்குரிய நாடுகள் **மூன்றைப்** பெயரிடுக. (03 புள்ளிகள்)

(ii) பின்வரும் தகவல்களுக்குரிய விடைகளை ஒழுங்குமுறைப்படி தருக.

A - முதலாம் உலக மகா யுத்தத்தின் போது அமெரிக்காவிலிருந்த ஜனாதிபதி

B - இரண்டாம் உலக மகா யுத்தத்தின் போது யப்பானிய தாக்குதலுக்குட்பட்ட அமெரிக்கத் துறைமுகம்

C - இரண்டாம் உலக மகா யுத்தத்தின் போது ஜேர்மன் வதை முகாம்களில் கொல்லப்பட்ட இனம்

D - அடோல்ப் ஹிட்லரின் இரகசிய பொலிஸாரைக் குறிப்பிடப் பயன்படுத்தப்பட்ட பெயர் (04 புள்ளிகள்)

(iii) இரண்டாம் உலக மகா யுத்தத்திற்கு ஏதுவாயமைந்த காரணிகள் **இரண்டைச்** சுருக்கமாக விவரிக்குக. (05 புள்ளிகள்)

(iv) இரண்டாம் உலக மகா யுத்தத்தினால் பேரழிவுகள் ஏற்பட்டமையை **மூன்று** காரணிகளைக் குறிப்பிட்டு விளக்குக. (06 புள்ளிகள்)

9. **(i)**
- பிரான்ஸ்
- ஐக்கிய அமெரிக்கா
- பிரித்தானியா
- ரஸ்யா

(1 x 3 = 3 புள்ளிகள்)

(ii) *A* - வூட்றோ வில்சன்
B - பேர்ள்
C - யூதர்கள்
D - கெஸ்டபோ

(1 x 4 = 4 புள்ளிகள்)

(iii)
- ஜெர்மனியில் ஹிட்லரின் எழுச்சியும் அவரின் நடவடிக்கையும்
- இத்தாலியில் முசோலினியின் செயற்பாடுகள்
- யப்பானின் நடவடிக்கைகள் (ஆக்கிரமிப்பு)
- சர்வதேச சங்கத்தின் பலவீனம்.

(2 + 3 = 5 புள்ளிகள்)

(iv)
- அதிக உயிர்சேதங்கள் ஏற்பட்டமை.
- பாரியளவில் சொத்துக்கள், செல்வங்கள் அழிவடைந்தமை.
- அங்கவீனர்கள், அநாதைகள், அகதிகள் உருவானமை.
- சூழல் மாசடைதல் (நீண்டகால)
- யுத்தம் ஏற்பட்ட நாடுகளில் பொருளாதார வீழ்ச்சி அடைந்தமை.

(3 + 3 = 6 புள்ளிகள்)